INSTITUCION EDUCATIVA PARTICULAR
"CAMINOS A LA LUZ"

EVALUACION DE MATEMATICA
SEGUNDO QUIMESTRE

NOMBRE: **TERCER AÑO E.G.B.**

1. ESCRIBE EL NOMBRE DE LOS CUERPOS GEOMETRICCOS



- ¿Cómo se llama cada línea? Elige la opción correcta.

Une con una línea el arreglo rectangular con la multiplicación que representa



2x7=14



3x5=15



2x5=10

2x2=4

LIVEWORKSHEETS

INSTITUCION EDUCATIVA PARTICULAR "CAMINOS A LA LUZ"

CUENTA LAS FILAS Y COLUMNAS Y REPRESENTA LA SUMA Y MULTIPLICACIÓN

☐ + ☐ + ☐ + ☐ = ☐

☐ x ☐ = ☐



☐ + ☐ + ☐ + ☐ = ☐

☐ x ☐ = ☐

OBSERVA Y UNE LAS MONEDAS CON SUS VALORES

5 centavos

50 centavos

1 dólar

10 centavos

25 centavos

1 centavo

LIVEWORKSHEETS

INSTITUCION EDUCATIVA PARTICULAR
"CAMINOS A LA LUZ"

SUMAS Y RESTAS DE TRES CIFRAS

Suma:

	C	D	U
	1	2	6
+	5	4	3

B.

	C	D	U
	2	8	4
−	1	5	3

SELECIONA SI ES UN NÚMERO PAR O IMPAR Y COLOCA

28	
par	impar

85	
par	impar

100	
par	impar

121	
par	impar

LIVEWORKSHEETS

INSTITUCION EDUCATIVA PARTICULAR
"CAMINOS A LA LUZ"

Elige la opción correcta para hallar el doble de cada número:

* 10 → _____
* 15 → _____
* 11 → _____
* 13 → _____
* 8 → _____
* 12 → _____
* 7 → _____
* 20 → _____

Elige la opción correcta para calcular la mitad de cada número:

* 8 → _____
* 10 → _____
* 6 → _____
* 12 → _____
* 16 → _____
* 20 → _____

ESCRIBE LAS RESPUESTAS DE LAS SIGUIENTES MULTIPLICACIONES

2X9	
3X8	
4X7	
5X6	
6X9	
7X8	
8X8	
9X10	

LIVEWORKSHEETS

INSTITUCION EDUCATIVA PARTICULAR
"CAMINOS A LA LUZ"

Relacione con una línea los elementos de cada conjunto.

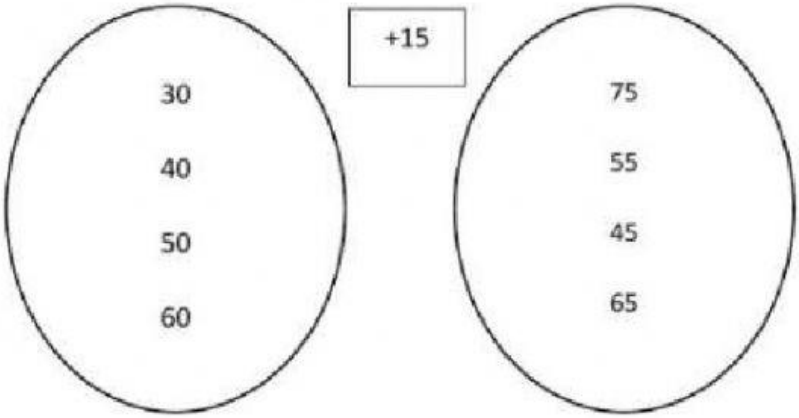

Conjunto de salida **Conjunto de llegada**

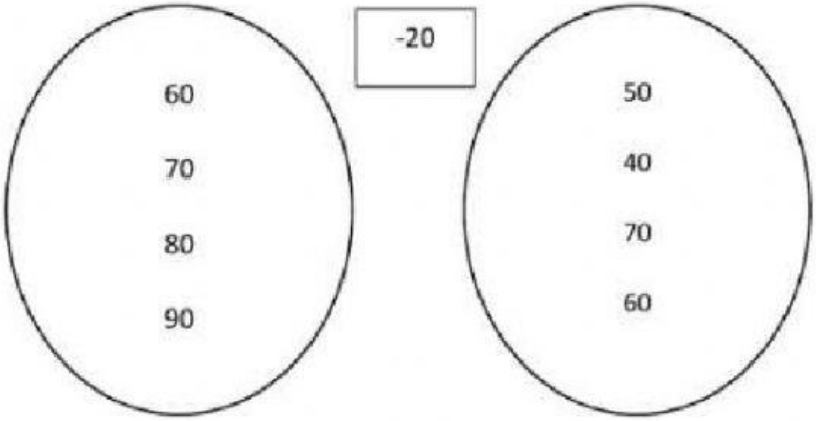

- Calcula el perímetro de cada cuadrado:

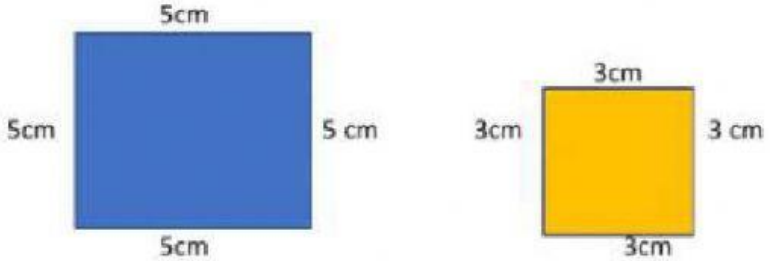

P = ☐ + ☐ + ☐ + ☐ P = ☐ + ☐ + ☐ + ☐

P = ☐ P = ☐

LIVEWORKSHEETS

INSTITUCION EDUCATIVA PARTICULAR "CAMINOS A LA LUZ"

Completa la secuencia de los meses del año.

enero | | marzo | abril | | junio

julio | | | octubre | | |

Coloca en orden los días de la semana. **Escribe** los números ordinales del 1.º al 7.º

lunes ( ) | jueves ( ) | sábado ( ) | miércoles ( )

domingo ( ) | martes ( ) | viernes ( )

Observa y une el cuadro que corresponde con la imagen:

Ayer monté bicicleta.

Hoy alimente a mi perrito.

Mañana estaré en clases virtuales.

LIVEWORKSHEETS

INSTITUCION EDUCATIVA PARTICULAR
"CAMINOS A LA LUZ"

Encuentra las equivalencias y enlaza las columnas.

2 semanas	36 meses
3 meses	6 semanas
2 años	30 meses
1 mes y medio	14 días
8 semanas	2 meses
2 años y medio	90 días
3 años	96 semanas

Escribe la hora que marcan estos relojes.

.....

.....

.....

.....

LIVEWORKSHEETS