Estudio, Trabajo y Disciplina
Av. 9 de Octubre y García Moreno
☎: 03 2940845
✉: colegiochiriboga@andinanet.net
Riobamba – Ecuador

UNIDAD EDUCATIVA "CAPITÁN EDMUNDO CHIRIBOGA"
EXAMEN QUIMESTRAL DE MATEMÁTICA
2021-2022

DATOS INFORMATIVOS:					
NOMBRES Y APELLIDOS DEL ESTUDIANTE:				CALIFICACIÓN:	
CURSO Y PARALELO:	2doEGB	FECHA:		QUIMESTRE:	SEGUNDO
ELABORADO POR:		REVISADO POR:	Lic. Ana Heredia COORDINADORA	AUTORIZADO POR:	MSC. Krupzcaya Guapulema VICERRECTORA
Firma:		Firma:		Firma:	

INDICACIONES

- Lea detenidamente cada pregunta antes de contestar.
- Escriba de manera clara y legible.
- Evite tachones y borrones.
- La evaluación consta de 8 preguntas.

EVALUACIÓN:

- En total, la prueba es evaluada sobre 10 puntos.

INDICADORES DE EVALUACIÓN:

- I.M.2.1.12. Representa, escribe y lee los números naturales de hasta dos cifras en forma concreta, gráfica y simbólica (Destreza desagregada). (Ref., M.2.1.12.)
- I:M:2.1.21. Realiza adiciones y sustracciones con los números naturales hasta el 99 con material concreto, mentalmente, gráficamente y de manera numérica. (Ref. M.2.1.21.)

1. Ejecute las siguientes interrogantes.

a) Relacione la cantidad con su descomposición.

85 78 60 43 54

70+8= 60+0= 80+5= 50+4= 40+3=

b) Lea y escriba la cantidad.

treinta y uno

ochenta y cuatro

cincuenta y nueve

noventa y seis

LIVEWORKSHEETS

Estudio, Trabajo y Disciplina
Av. 9 de Octubre y García Moreno
☏: 03 2940845
✉: colegiochiriboga@andinanet.net
Riobamba – Ecuador

2. Relacione la escritura con la cantidad y material de BASE 10.

Sesenta y cinco	**81**	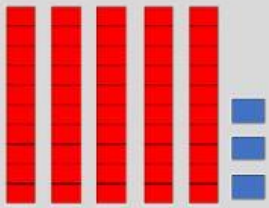
Ochenta y uno	**53**	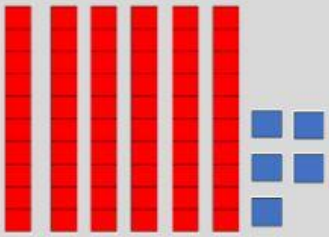
Cincuenta y tres	**65**	
Setenta y cuatro	**74**	

3. Resuelva el siguiente problema.

- En la campaña de reciclaje, los niños de segundo grado EGB. recolectaron botellas, 61 de plástico y 28 de vidrio.

  ¿Cuántas botellas recolectaron en total?

DATOS	RAZONAMIENTO	OPERACIÓN	RESPUESTA
Cantidad *botellas* _____ botellas de plástico. _____ botellas de vidrio.	Para saber cuántas botellas recolectaron en total debo hacer una: _____		Los niños recolectaron en total: _____ botellas.

LIVEWORKSHEETS

Estudio, Trabajo y Disciplina
Av. 9 de Octubre y García Moreno
☏: 03 2940845
✉: colegiochiriboga@andinanet.net
Riobamba – Ecuador

4. Responda la siguiente pregunta:

a. ¿Piensas que has resuelto bien el problema propuesto y que el mismo fue fácil?

SI **NO**

5. Coloque una X según corresponda.

		PUEDO HACERLO	ME COSTÓ UN POCO	NECESITO AYUDA
CONTENIDOS	Represento, escribo y leo cantidades del 0 al 99			
	Escribo el valor posicional de los números de hasta dos cifras.			

6. Coloque en la tabla posicional las cantidades y resuelva los siguientes ejercicios

98 – 73 =

	D	U

43+52=

	D	U

86- 43 =

	D	U

40+56=

	D	U

7. Seleccione la respuesta correcta:

7.1 ¿Por qué es importante saber leer y escribir números?

a) Porque es muy fundamental para realizar operaciones en la vida cotidiana

b) Porque aprendo mucho.

LIVEWORKSHEETS

Estudio, Trabajo y Disciplina
Av. 9 de Octubre y García Moreno
☏: 03 2940845
✉: colegiochiriboga@andinanet.net
Riobamba – Ecuador

8. **Lea y conteste las interrogantes.**

	SI	A VECES	NO
¿Me gusta sumar y restar?			
¿Ubico bien las cantidades para resolver los ejercicios de suma y resta			

.....

DOCENTE TUTOR

.....

Msc. Krupzcaya Guapulema
VICERRECTORA

LIVEWORKSHEETS