Actividad #13

MECANISMOS DE EXCRESION Y ANATOMÍA DEL APARATO URINARIO.

Curso: _____ **Apellidos y Nombres:** _____

I. ¿Qué órganos excretores tienen los animales vertebrados e invertebrados?

1
2
3
4
5

1
2
3
4

Metanefridio. | Pulmones, | Intestino, | Riñones | Glándulas Sudoríparas | Glándulas antenales.

Tubos de Malpighi. | Hígado | Protonefridios.

2. Responda a las siguientes preguntas:

1. ¿Cuáles son los animales que no poseen aparato excretor? _____

2. ¿Cuál es la estructura de excreción de los nemátodos? _____

3. ¿Cómo se llama el poro por donde eliminan sus desechos al exterior los moluscos? _____

4. ¿Cuáles son los animales que eliminan sus desechos por los tubos de Malpighi? _____

5. ¿Principales órganos del mecanismo de excreción de los animales vertebrados? _____

LIVEWORKSHEETS

3. Coloque nombre a las siguientes estructuras:

ESTRUCTURA INTERNA DEL RIÑON

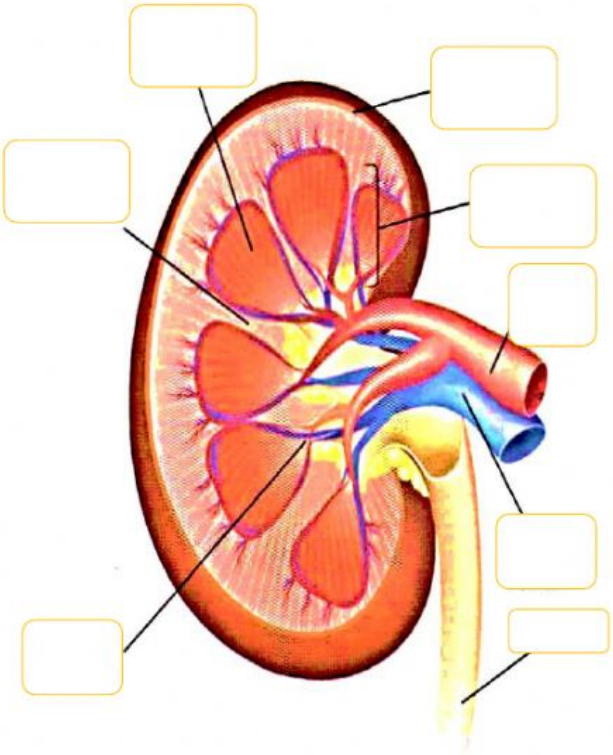

ESTRUCTURA DEL TÚBULO RENAL

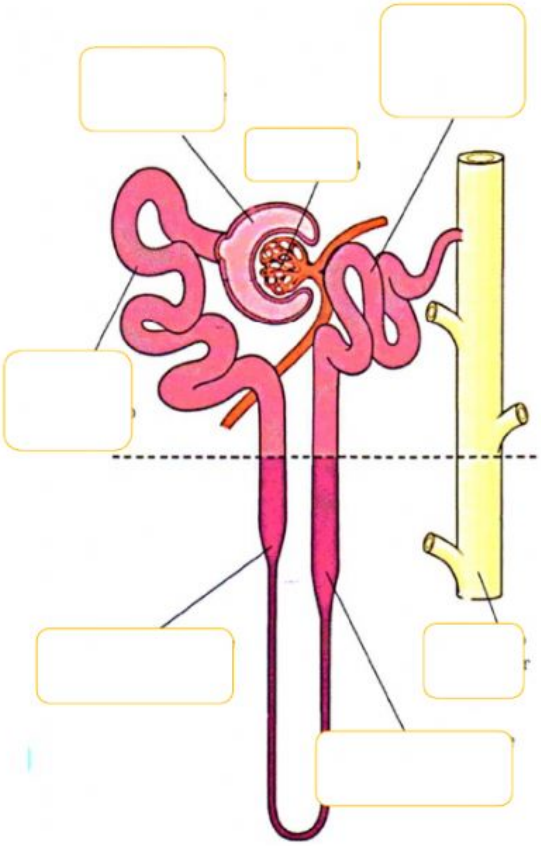

ESTRUCTURA DE LA NEFRONA

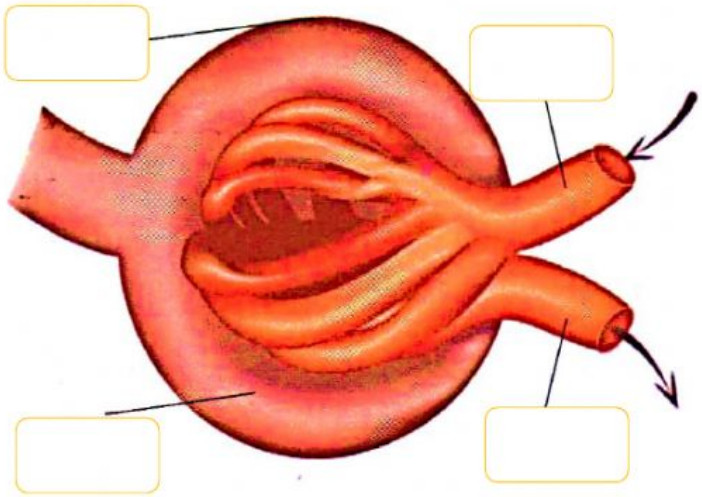

LIVEWORKSHEETS