MATH ASSESSMENT		
Name:		**Score:**
Grade: Fourth	**Date:** Del 20 al 24 de junio del 2022	
Phrase: "Puedes más de lo que te imaginas, vales más de lo que crees".		

EVALUACIÓN SEGUNDO PARCIAL - SEGUNDO QUIMESTRE

1. Selecciona las casillas cuyas multiplicaciones estén correctas. **(1p)**

$9 \times 8 = 8 \times 9$ $81 = 81$	$(5 \times 3) \times 6 = 5 \times (3 \times 6)$ $15 \times 6 = 5 \times 18$ $90 = 90$	$3 \times 4 \times 2 = 2 \times 4 \times 3$ $24 = 24$
$3 \times (5 \times 1) = (3 \times 5) \times 1$ $3 \times 5 = 15 \times 1$ $15 = 15$	$4 \times 6 \times 2 = 2 \times 4 \times 6$ $36 = 36$	$(5 \times 4) \times 3 = 5 \times (4 \times 3)$ $20 \times 3 = 5 \times 12$ $80 = 80$

2. Completa el siguiente esquema. Luego, selecciona la respuesta correcta de las preguntas planteadas. **(1p)**

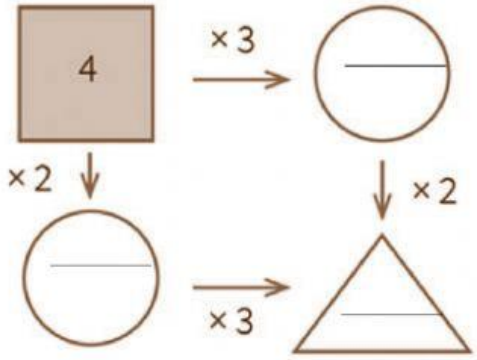

- ¿Qué ocurre si sigues las dos rutas desde el cuadrado?

El resultado es el mismo El resultado cambia

- ¿Qué propiedad se cumple al finalizar cada proceso?

Distributiva Asociativa Modulativa

3. Lee las siguientes situaciones, resuelve las operaciones y encuentra la respuesta correcta. **(2p)**

A los 164 estudiantes de cuarto grado les compraron entradas para el cine. Si cada entrada cuesta $4 ¿Cuánto se pagó por todas las entradas?

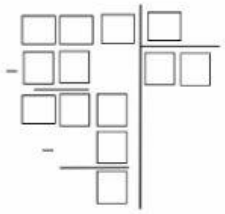

Respuesta: _____

Susi confecciona 5 mascarillas por día, si ha trabajado 155 días. ¿Cuántas mascarillas ha confeccionado en total?

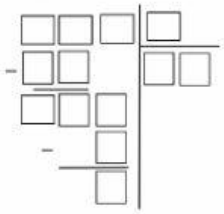

Respuesta: _____

LIVEWORKSHEETS

4. **Resuelve cada división.** **(2p)**

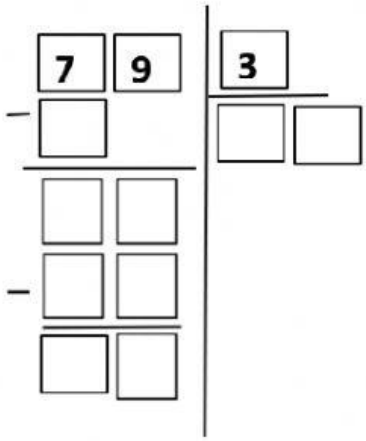

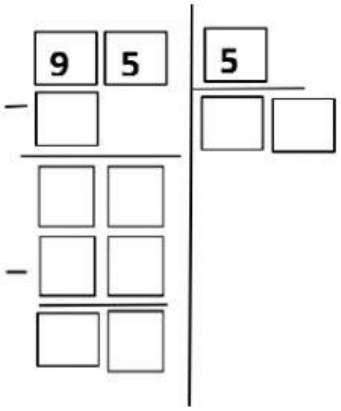

5. **Lee y resuelve la situación usando el método de sustracciones sucesivas. Para ello, escribe en los espacios vacíos el número correspondiente.** **(1p)**

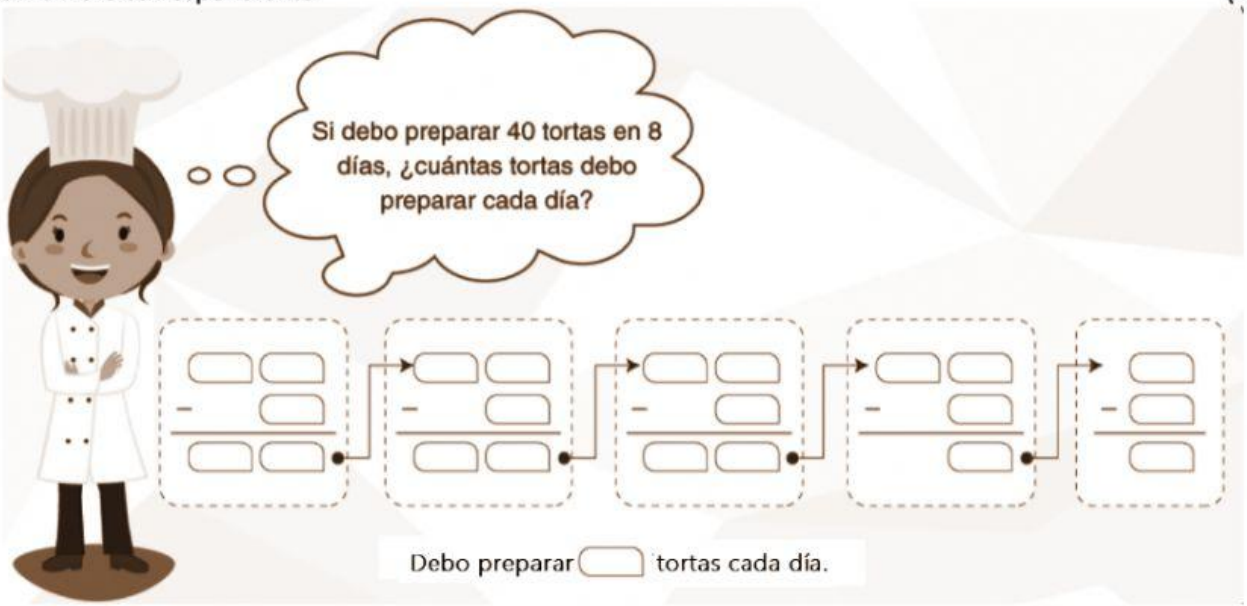

6. **Resuelve el siguiente problema. Julián compró 19 gomitas para repartir entre sus cuatro amigos. ¿Cuántas gomitas le corresponden a cada amigo? ¿Cuántas le sobran?** **(1p)**

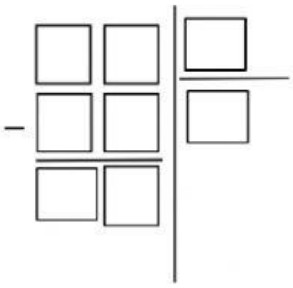

Respuesta:

¿Cuántas gomitas le corresponden a cada amigo?

_____

¿Cuántas le sobran?

_____

LIVEWORKSHEETS

7. **Observa la masa de cada imagen, realiza conversiones y calcula en el equivalente indicado.** **(2p)**

Los libros pesan en _____ lb y en _____ g.

El niño pesa en _____ lb y en _____ g.

Parents' signature:

LIVEWORKSHEETS