	INSTITUCIÓN EDUCATIVA "MARQUESA DE SOLANDA" Av. Mariscal Sucre y Cusubamba	Ministerio de Educación Educamos para tener patria AÑO LECTIVO 2021-2022

EXAMEN QUIMESTRAL CORRESPONDIENTE AL SEGUNDO QUIMESTRE

AREA DE MATEMATICAS

NOMBRE: _____ SEGUNDO AÑO DE E.G.B " "

FECHA: _____

INDICACIONES:

- Escuche atentamente las indicaciones de la maestra
- La evaluación durara 60 minutos
- Realiza la evaluación en forma personal

1. Represente la suma de decenas puras en la semirrecta numérica



2 puntos

2. Escriba los números: anterior, entre y posterior

ANTERIOR	ENTRE	POSTERIOR
	52	**53**
35		**37**
88	**89**	

3 Puntos

LIVEWORKSHEETS

3. Represente gráficamente con regletas las siguientes cantidades

42	65

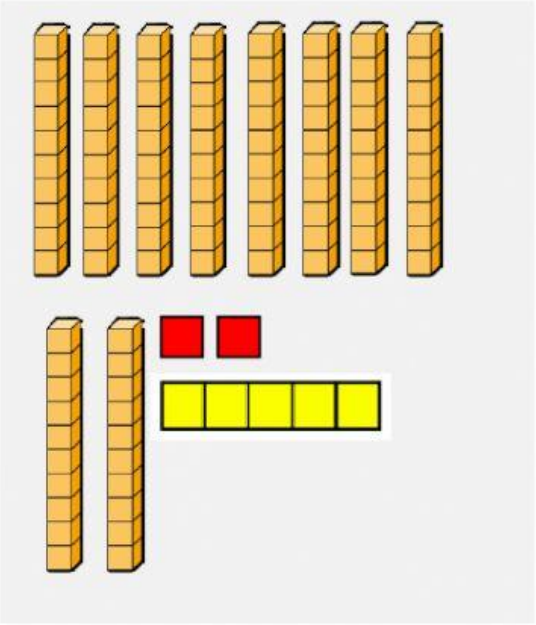

2 Puntos

4. Escriba el nombre de los siguientes números

56.....

69.....

99.....

33.....

4 Puntos

5. Escriba el signo >, < , = según corresponda

75		44
51		51
32		63

<
>
=

3 Puntos

LIVEWORKSHEETS

6. Resuelva los siguientes problemas

a) Pedro tiene 23 lápices negros y Pablo tiene 36 lápices amarillos. ¿Cuántos lápices tienen en total?

DATOS	RAZONAMIENTO	OPERACION
Pedro tiene _____lápices negros Pablo tiene _____ lápices amarillos	Tengo que _____	◯ D U
RESPUESTA: Tienen en total _____ lápices.		

b) En la granja de Samuel hay 77 gallinas, por falta de comida se murieron 42 gallinas. ¿Cuántas gallinas quedaron en la granja?

DATOS	RAZONAMIENTO	OPERACION
En la granja de Samuel hay _____ gallinas Murieron _____ gallinas	Tengo que _____	◯ D U
RESPUESTA: Quedaron en la granja _____ gallinas.		

2 puntos

LIVEWORKSHEETS

7. Realice las siguientes operaciones

	D	U
+	7	8
	1	1

	D	U
−	9	8
	3	7

2 Puntos

8. Escriba la hora que indican los relojes

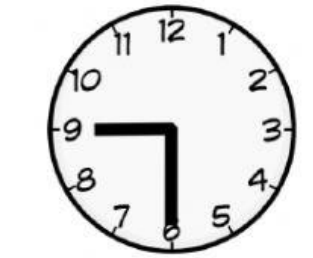

:



:

2 Puntos

9. Pinte el rectángulo de color amarillo y el triángulo de color rojo

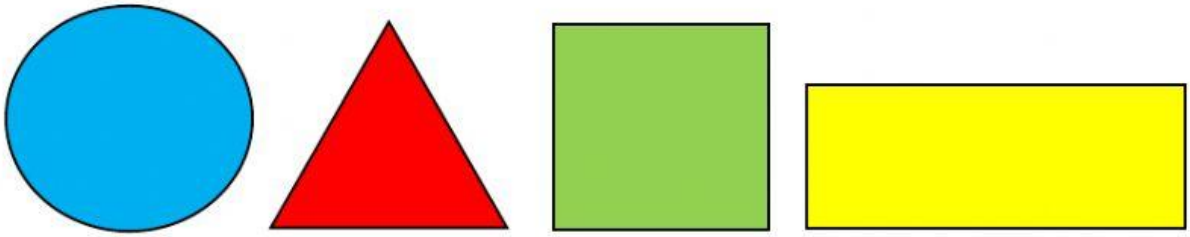





Rectángulo

Triángulo

2 puntos

LIVEWORKSHEETS

10. Analice y responda

Observa el precio de cada juguete y **dibuja** los dos juguetes que Andrés podría comprar con $ 17.



2 puntos

TOTAL 24 PUNTOS

LIVEWORKSHEETS