Ministerio de Educación	**UNIDAD EDUCATIVA DEL MILENIO "JORGE RODRÍGUEZ ROMÁN"**	

EVALUACION SUMATIVA DE DESTREZAS QUIMESTRE II

NOMBRE DEL ESTUDIANTE:		**Calificación:**
NOMBRE DE LAS DOCENTES:		
GRADO	**Segundo EGB**	
FECHA:		
JORNADA:	**Matutina**	
ASIGNATURA:	**Matemáticas**	

Indicaciones generales:

- Disponer del material necesario para realizar esta evaluación; lápiz, borrador y colores.
- Prestar la mayor atención a la maestra en la lectura e indicaciones y cada pregunta.
- No interrumpir a su compañero(a) que se encuentra a su lado.
- Permanecer en su lugar(pupitre) mientras se desarrolla la evaluación, si existe alguna inquietud alzar la mano y la maestra le asistirá de manera inmediata.

1. Complete los números como se pide en cada sucesión (0,25 c/u. T. 1p)

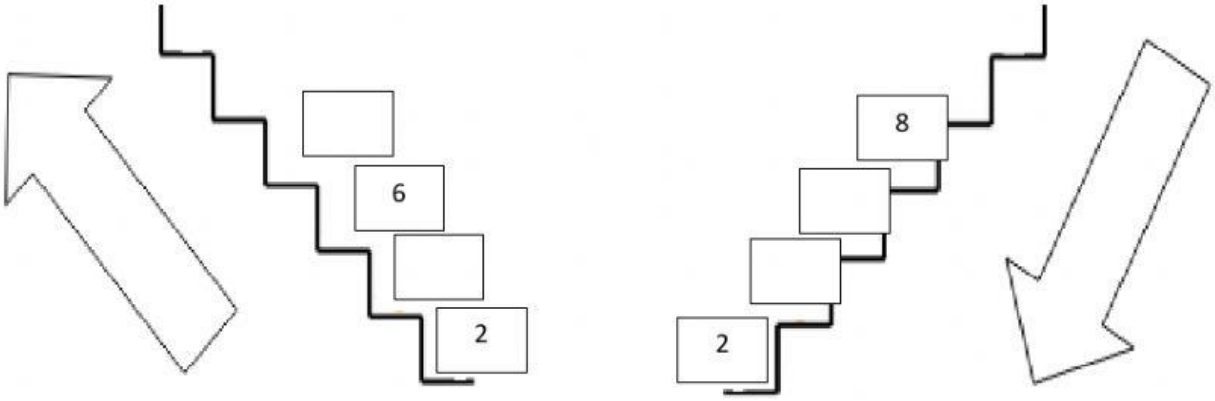

ASCENDENTE **DESCENDENTE**

2. Cuente las decenas puras y realice la operación correspondiente. (0,5 c/u T. 1P)

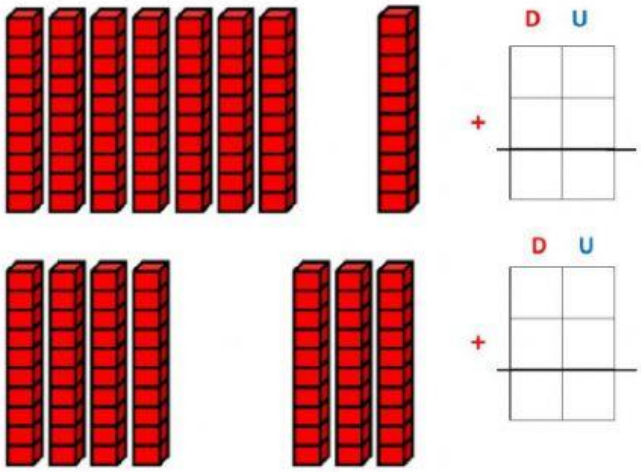

LIVEWORKSHEETS

3. Seleccione si es verdadero o falso según corresponda. (0,25 c/u T 1p)

23	>	45
55	>	35
46	=	46
22	<	40

4. Coloree el resultado correcto (0,25 c/u T 1p)

5 + 5		
10	9	12

8 + 4		
14	12	10

8 - 6		
3	4	2

10 - 7		
4	5	3

5. En el siguiente dibujo coloree las siguientes figuras geométricas: 1 Cuadrado, 1 rectángulo, 1 triangulo y 1 circulo, tomar en cuenta estos colores. **(0,25 c/u T. 1p)**



LIVEWORKSHEETS

6. Completa las siguientes sucesiones. (0,10 c/u T. 1p)

7. Una las imágenes de bloques con el número que corresponde. (0,25 c/u T. 1p)

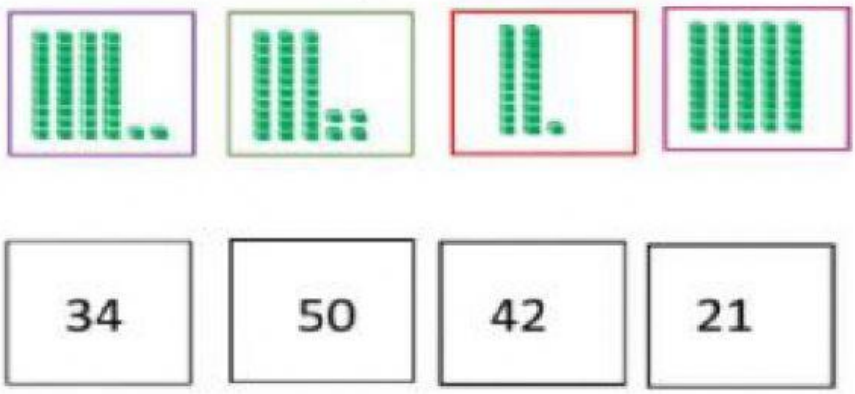

8. Completa el orden que llegaran los animales al veterinario. (0,25 c/u T. 1p)



a) El conejo entrará [°] **al veterinario.**

b) El loro entrará [8°] **al veterinario.**

c) El perro entrará [°] **al veterinario.**

d) El gato entrará [°] **al veterinario.**

e) La tortuga entrará [°] **al veterinario.**

LIVEWORKSHEETS

9. Cuenta y completa las decenas (0,25 c/u T. 1p)

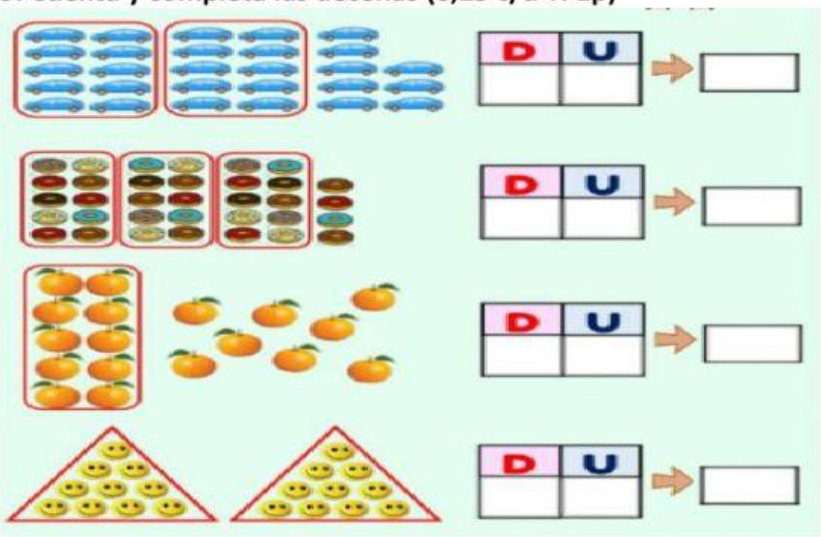

10. realice las siguientes sumas y restas (0,10 c/u T. 1p)

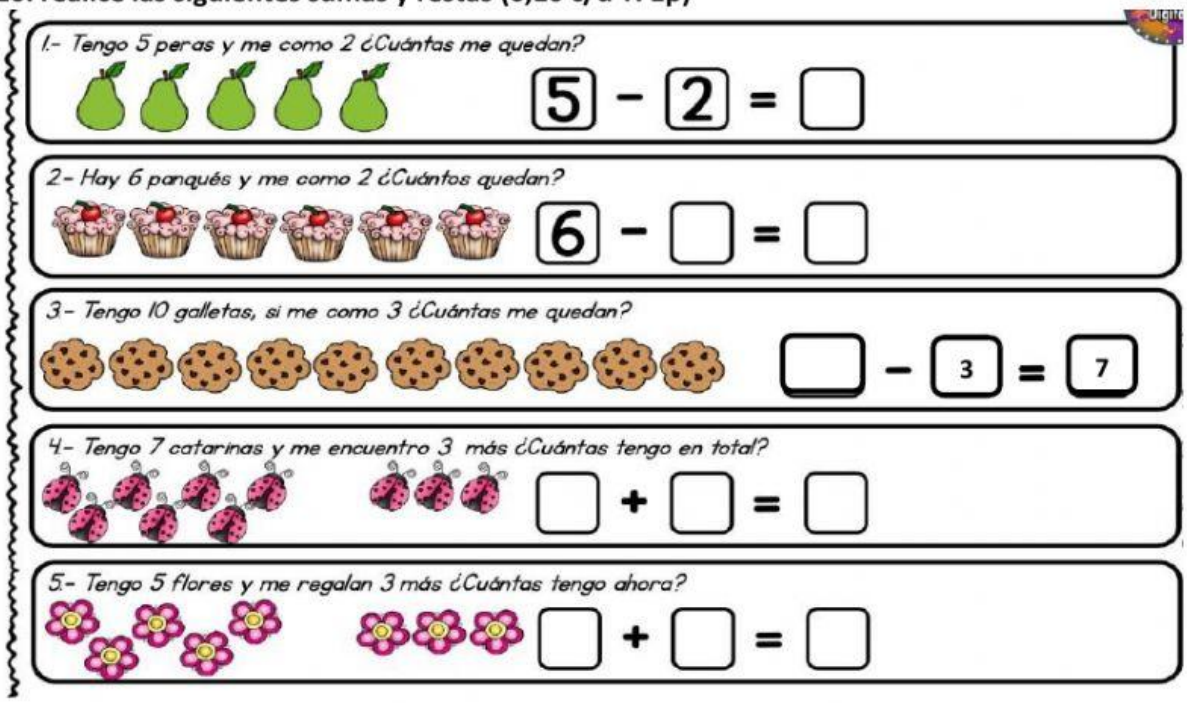

Elaborado Por:
Lcda. Verónica Zurita

LIVEWORKSHEETS