UNIDAD EDUCATIVA "HARRIET BEECHER STOWE"
AÑO LECTIVO: 2020 – 2021
PUEMBO – ECUADOR
2390 – 275

EVALUACIÓN PARCIAL 4

ÁREA: MATEMÁTICA

SEGUNDO GRADO "A"



SUERTE

NOMBRE: _____

1. Resuelva los problemas de suma y resta. **(2 PUNTOS)**

En mi escuela hay 53 balones de fútbol y 26 balones de basquet. ¿ Cuántos balones hay en total?

Datos

☐ Fútbol

☐ Basquet

Operación

	D	U
+		



R= ☐ balones.

A mi cumpleaños invité a 36 amigos pero solo llegaron 21 amigos. ¿Cuántos no vinieron?

Datos

☐ Amigos

☐ Asistieron

Operación

	D	U
−		



R= ☐ no vinieron

LIVEWORKSHEETS

UNIDAD EDUCATIVA "HARRIET BEECHER STOWE"
AÑO LECTIVO: 2020 – 2021
PUEMBO – ECUADOR
2390 – 275

2. Una con el gráfico del entorno según corresponda. **(1 PUNTO)**

CUADRADO	RECTÁNGULO	TRIÁNGULO	CÍRCULO







3. Coloque la actividad que realiza en el día y otro en la noche. **(1 PUNTO)**

Día





Noche





LIVEWORKSHEETS

UNIDAD EDUCATIVA "HARRIET BEECHER STOWE"
AÑO LECTIVO: 2020 – 2021
PUEMBO – ECUADOR
2390 – 275

4. Ordene las secuencias para determinar que sucedió antes y después. **(1 PUNTO)**



D.C. D: M.2.1.24. Resolver y plantear de forma individual o grupal problemas que requieran el uso de sumas con números de hasta dos cifras con reagrupación e interpretar la solución dentro del contexto del problema.

I.L: Resuelve problemas de adición de dos cifras

5. Resuelva las adiciones con reagrupación **(1 PUNTO)**

5	2
+ 2	9

5	8
+ 1	6

6. Resuelva las restas con reagrupación. **(1 PUNTO)**

9	6
— 1	9

7	2
— 2	7

7. Escriba el nombre de los elementos de la figura geométrica. **(1 PUNTO)**

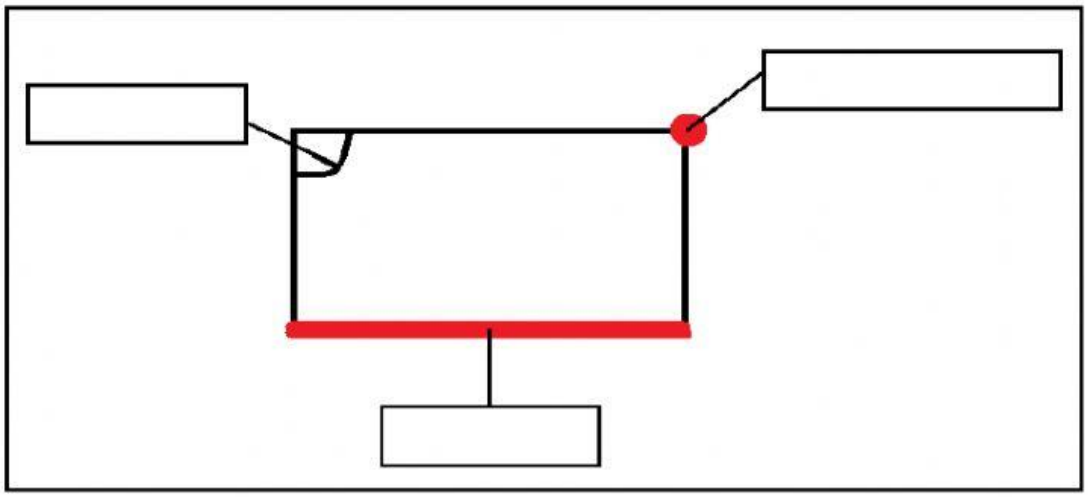

LIVEWORKSHEETS

UNIDAD EDUCATIVA "HARRIET BEECHER STOWE"
AÑO LECTIVO: 2020 – 2021
PUEMBO – ECUADOR
2390 – 275

8. Observe las ilustraciones y marque la respuesta correcta. **(1 PUNTO)**



Qué día está feliz: lunes | martes | viernes

Qué día esta triste: miércoles | jueves | domingo

D.C. D: M.2.3.1. Organizar y representar datos estadísticos relativos a su entorno e interpretar en pictogramas.

I.L: Reconoce los elementos de las figuras geométricas

9. Cuente los elementos y coloree según su cantidad en los recuadros **(1 PUNTO)**

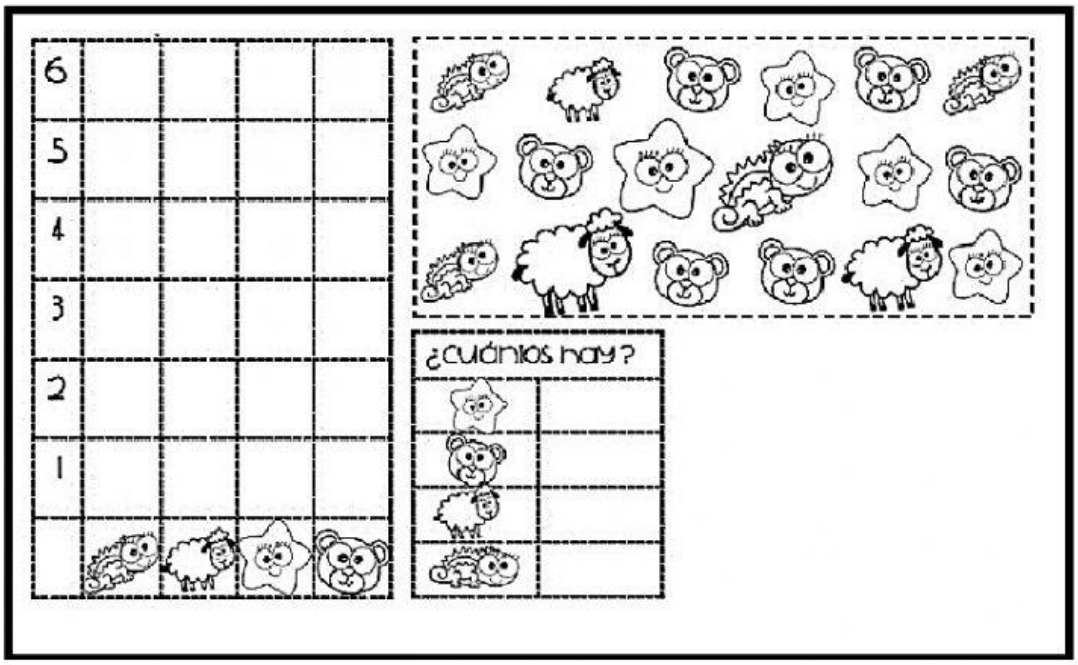

LIVEWORKSHEETS