จงเติมคำลงในช่องว่างตามสัญลักษณ์ทางไฟฟ้าที่กำหนดให้ถูกต้อง

1. 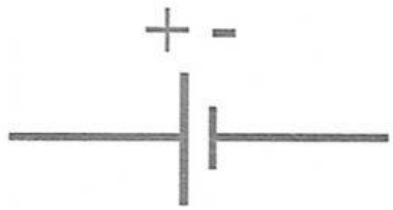

.....

2.  .....

3.  .....

4.  .....

5. 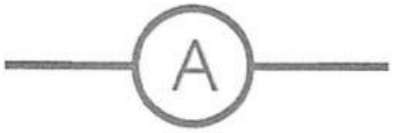

.....

6. 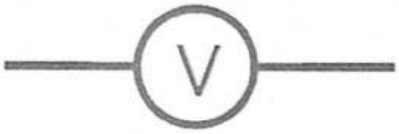

.....

7.  .....

8.  .....

LIVEWORKSHEETS