Multiplicando como una Suma iterada 2° Básico

Observa y completa los siguientes ejercicios.



Peceras _____

Peces por pecera _____

_____ + _____ + _____ = _____

3 veces 1 = _____ 3 x 1 = _____

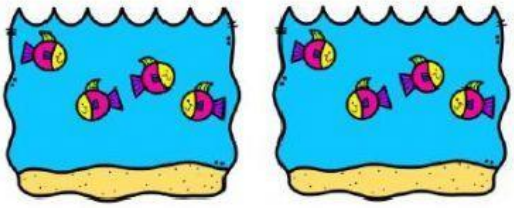

Peceras _____

Peces por pecera _____

_____ + _____ = _____

2 veces 4 = _____ 2 x 4 = _____



Peceras _____

Peces por pecera _____

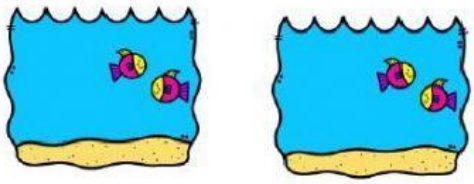

_____ + _____ + _____ + _____ + _____ = _____

5 veces 2 = _____ 5 x 2 = _____

LIVEWORKSHEETS