9. EL VALOR DE LAS PIEZAS

Nombre completo:_____

Grado: _____ Fecha: _____



A) Calcula las siguientes sumas y restas:

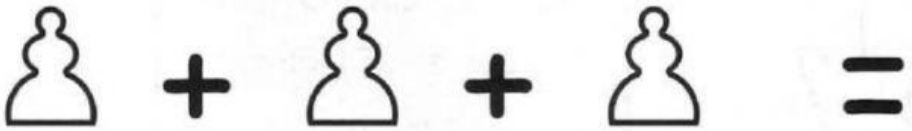

_____



_____



_____

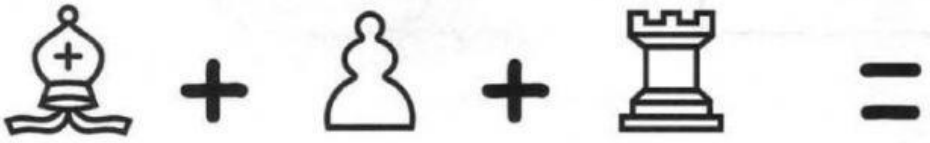

_____



_____

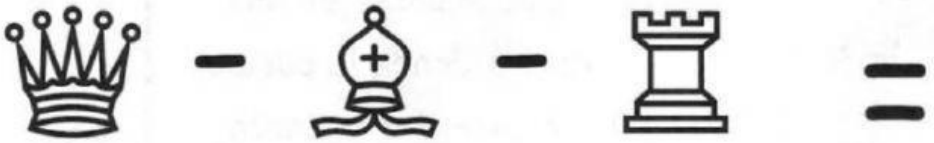

_____

LIVEWORKSHEETS

B) **Selecciona las piezas que dicen la verdad.**



LIVEWORKSHEETS

C) Selecciona la balanza que pesa más en cada caso.

1





2





3





4





LIVEWORKSHEETS