EL ÁREA

Calcula el área de cada uno de estos cuadrados:

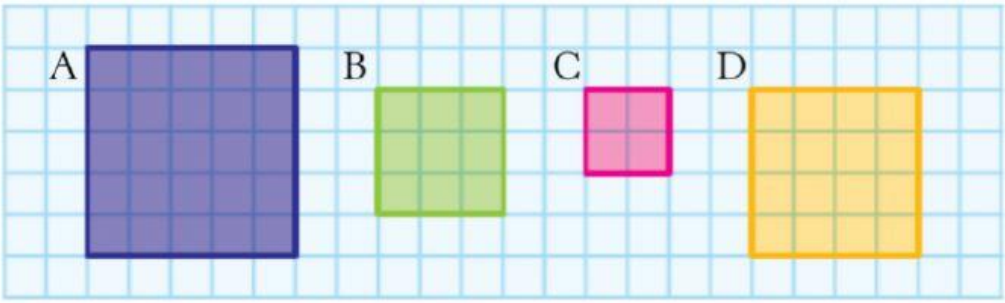

A = ... X .....=.....u.c

B = ... X .....=.....u.c

C= ..... X .....=.....u.c

D = ... X .....=.....u.c

Calcula el área del rectángulo y la del triángulo.

A= ..... X .....=.....u.c

D = ... X .....=.....u.c

.....

LIVEWORKSHEETS

3

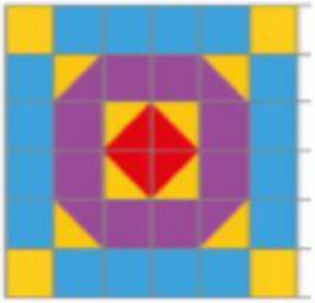

¿Cuántas unidades cuadradas tiene el mosaico completo? ¿Cuántas hay de cada color?

EL MOSAICO COMPLETO TIENE ..... U.C.

..... U.C. AMARILLAS.

..... U.C AZULES.

..... U. C ROJAS.

..... U.C MORADAS.

¿Cuántas unidades cuadradas tiene la superficie de estos polígonos?

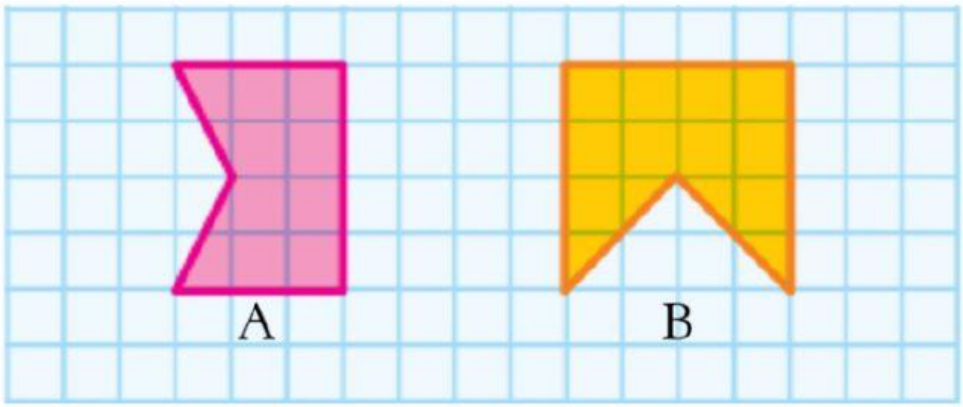

A=. .....u.c

B=. .....u.c

LIVEWORKSHEETS

Halla el área de las siguientes figuras.

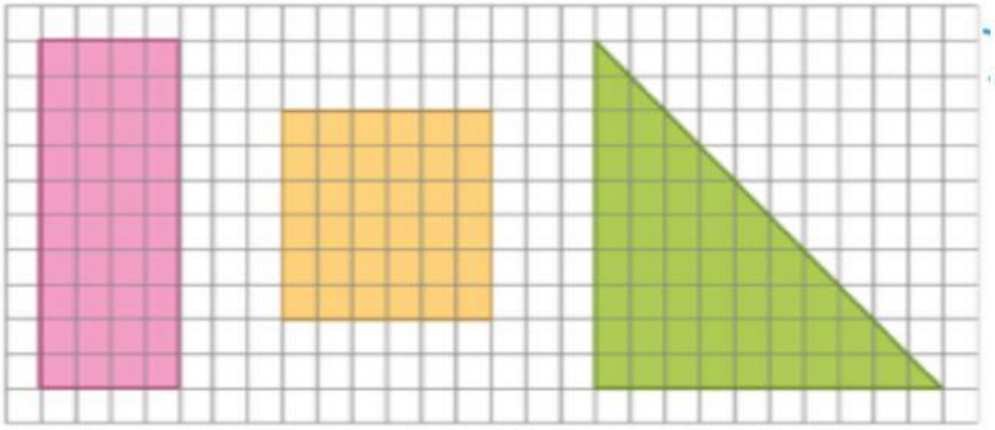

A = ……. X …….=……u.c

B = ……. X …….=……u.c

C= ……. X …….=……u.c
…….

Calcula el área de esta figura.

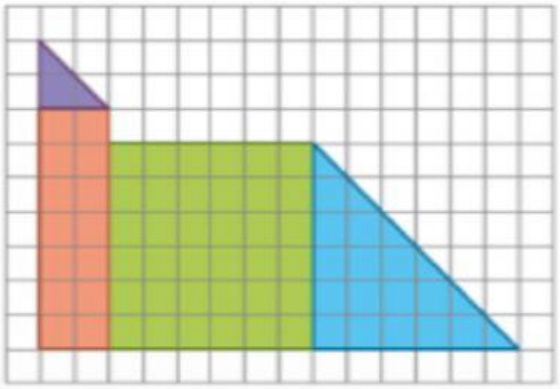

TRIÁNGULO MORADO =……u.c

TRIÁNGULO AZUL. =……u.c

RECTÁNGULO NARANJA= ……. X …….=……u.c

CUADRADO VERDE. = ……. X …….=…… u.c

TOTAL. = ……. + …….+ ……+……=…… u.c

LIVEWORKSHEETS

Mide la superficie de la figura tomando como unidad el cuadrado azul o el cuadrado verde.

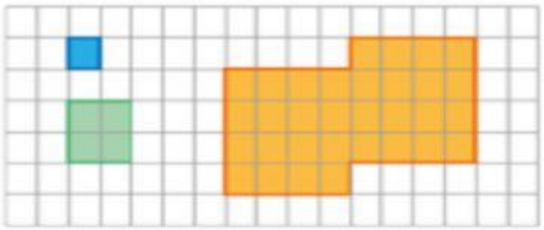

Con la u.c. Azul =.....u.c

Con la u.c. Verde =.....u.c

LIVEWORKSHEETS