ใบกิจกรรมที่ ๔ เรื่อง การทำงานของเซลล์ประสาท

วิชาชีววิทยา ว๓๐๒๔๕ ระดับชั้นมัธยมศึกษาปีที่ ๖

ชื่อ – สกุล ..... ชั้น ม...../..... เลขที่ .....

คำชี้แจง : ๑. ให้นักเรียนจับคู่กราฟแสดงศักย์ไฟฟ้าเยื่อเซลล์กับระยะการเกิดแอกชันโพเทนเชียลและเติมคำในช่องว่างให้ถูกต้อง

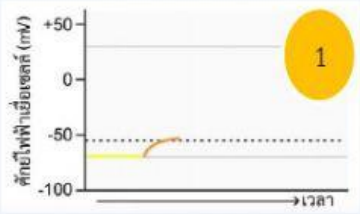

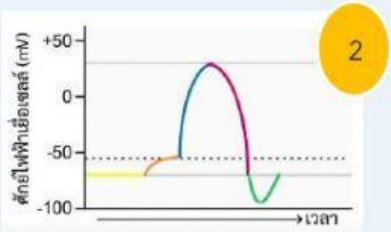

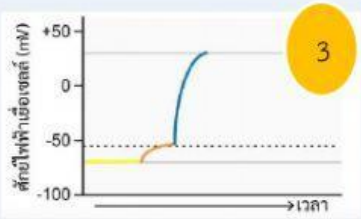

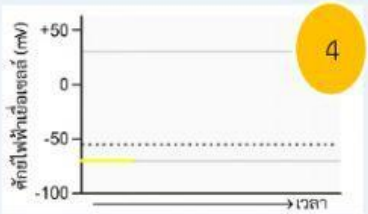

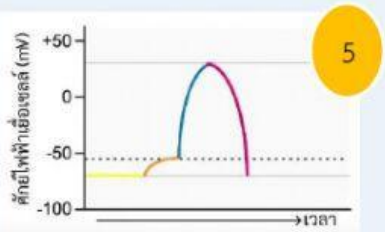

ระยะการเกิด	กราฟแสดงศักย์ไฟฟ้าเยื่อเซลล์	ค่า mV	Na^+ Channel	K^+ Channel
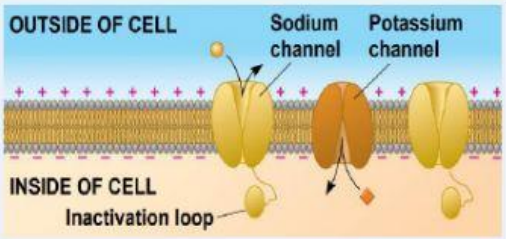 ระยะ.....				
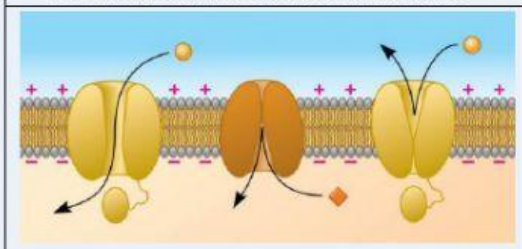 ระยะ.....				
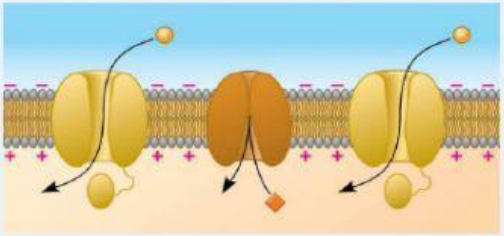 ระยะ.....				

LIVEWORKSHEETS

ระยะการเกิด	กราฟแสดงศักย์ไฟฟ้าเยื่อเซลล์	ค่า mV	Na^+ Channel	K^+ Channel
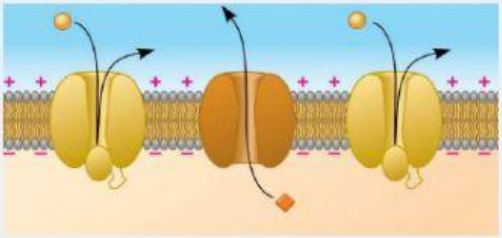 ระยะ.....				
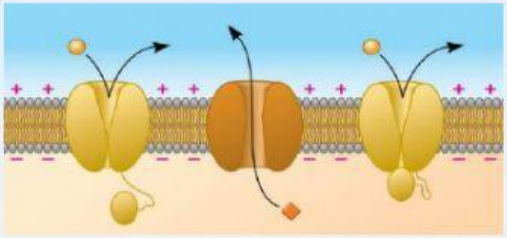 ระยะ.....				

LIVEWORKSHEETS