Ejercitación NOMBRE:

Ubicación de números en la recta numérica

1. ¿Qué número representa el punto azul en la recta numérica? _____

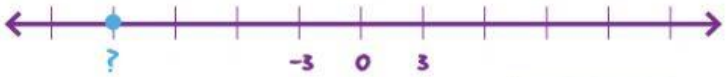

2. ¿Y este otro punto azul? _____



3. Ordena los números de menor a mayor: −3, −8, 0, 2, −12, −9

_____ _____ _____ _____ _____ _____

4. Ordena los números de mayor a menor: $-\frac{1}{2}$, 0, −2.5, −1, −3

_____ _____ _____ _____ _____

5. Ubica los números en la recta numérica: 0.75, $\frac{2}{4}$, $\frac{5}{4}$, $-\frac{1}{2}$

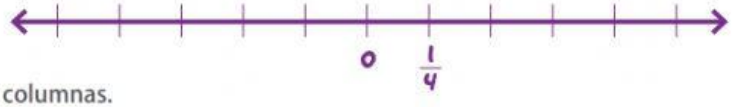

6. Relaciona las columnas.

13.2 metros bajo el nivel del mar	9.3
9.3 grados bajo cero	−13.2
13.2 metros sobre el nivel del mar	13.2
9.3 grados	−9.3

© UNOi

LIVEWORKSHEETS