a) Clasifica los ángulos siguientes, según su abertura:

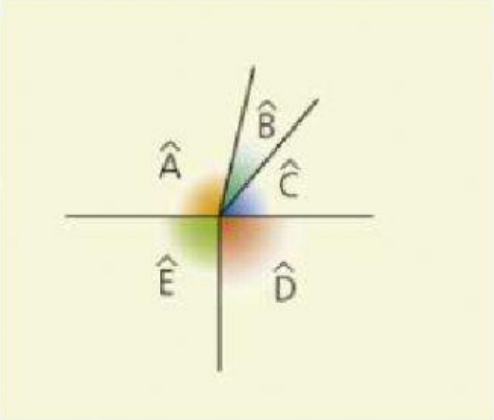

$\hat{A}$	$\hat{B}$	$\hat{C}$	$\hat{D}$	$\hat{E}$

b) Halla el valor de los siguientes ángulos y clasifícalos:

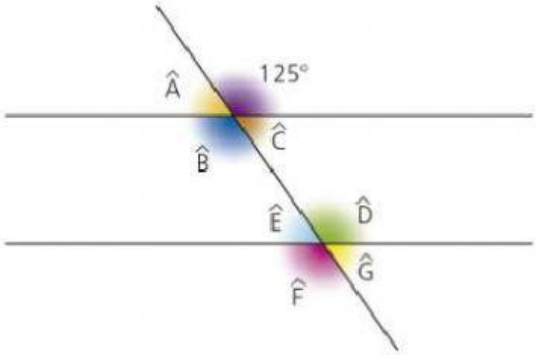

$\hat{A}$	$\hat{B}$	$\hat{C}$	$\hat{D}$	$\hat{E}$	$\hat{F}$	$\hat{G}$



EprMathClass "Mundo Geometría"

LIVEWORKSHEETS

a. ¿Cuáles son suplementarios?

125º	125º
$\widehat{A}$	$\widehat{A}$
$\widehat{B}$	$\widehat{B}$
$\widehat{C}$	$\widehat{C}$
$\widehat{D}$	$\widehat{D}$
$\widehat{E}$	$\widehat{E}$
$\widehat{F}$	$\widehat{F}$
$\widehat{G}$	$\widehat{G}$

b. ¿Cuáles son opuestos por el vértice?

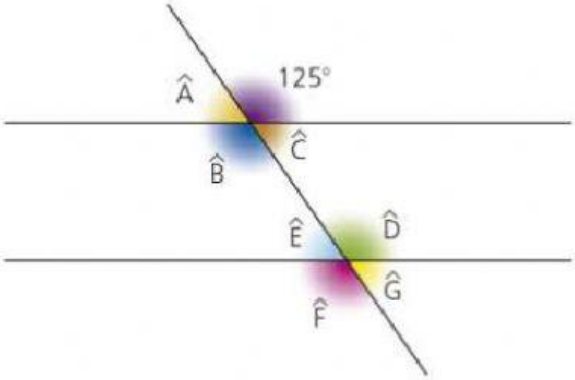

125º	$\widehat{C}$
$\widehat{A}$	$\widehat{G}$
$\widehat{D}$	$\widehat{F}$
$\widehat{E}$	$\widehat{B}$

LIVEWORKSHEETS