Diana

# La Tierra, el Sol y la Luna en Movimiento

Selecciona la palabra correcta.

| MOVIMIENTO DE ROTACIÓN | MOVIMIENTO DE TRASLACIÓN |
|---|---|
| La Tierra gira ... | La Tierra gira ... |
| Da lugar a los ... y las ... | Da lugar a las ... |
| Tarda un ... en dar una vuelta | Tarda un ... en dar una vuelta |

Completá los espacios con las palabras que están en el recuadro

365 alrededor otoño noche cuatro traslación 24 sol rotación

El movimiento de _____ de la tierra es el que realiza _____ de su propio eje. Dura _____ horas (un día) y provoca el día y la _____

El movimiento de _____ es el que realiza la tierra alrededor del _____. Dura _____ días (un año) y provoca las _____ estaciones (primavera, verano, _____ e invierno).

Observá las imágenes y arrastrá las palabras que correspondan

a)

Translación

Rotación

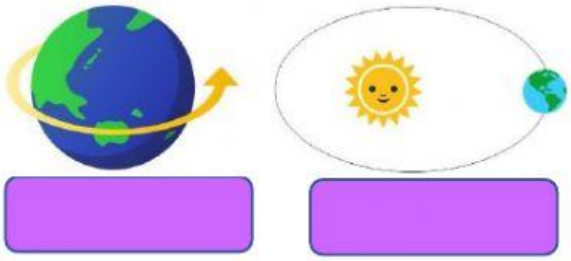

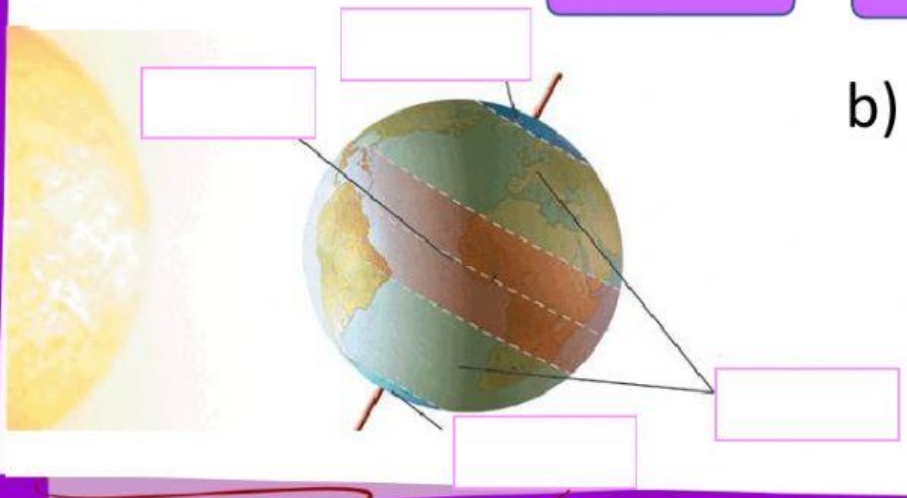

b)

Zona Cálida

Zona Fría

Zona Templada

Zona Fría

LIVEWORKSHEETS

## Marcá con una X

El movimiento de rotación de la Tierra dura aproximadamente:

| | | | |
|---|---|---|---|
| 24 horas | 24 días | 365 horas | 365 días |

El movimiento de rotación da origen a

| | | | |
|---|---|---|---|
| El día. | El verano. | El día y la noche. | Las estaciones. |

Como gira la Tierra durante el movimiento de rotación

| | | | |
|---|---|---|---|
| Alrededor del sol. | Alrededor del sol. | Sobre ella Misma. | Alrededor de otros planetas. |

El movimiento de traslación dura aproximadamente:

| | | | |
|---|---|---|---|
| 24 horas | 24 días | 365 horas | 365 días |

El movimiento de traslación da origen a:

| | | | |
|---|---|---|---|
| El día. | El verano. | El día y la noche | Las estaciones |

## Uní con flechas

| | |
|---|---|
| *Solsticio* | Es el punto más cercano de la órbita de un cuerpo celeste alrededor del Sol. |
| *Afelio* | Son los momentos del año en los que el Sol alcanza su mayor excursión hacia el norte o el sur relativa al ecuador celestial en la esfera celeste, y la duración del día o de la noche son las máximas del año. |
| *Equinoccio* | Se le conoce como al punto de la órbita terrestre en que nuestro planeta se sitúa más lejos del Sol |
| *Perihelio* | Ocurren dos veces al año y son momentos en los que el día y la noche tienen la misma duración. Este fenómeno tiene lugar cuando el sol se encuentra exactamente sobre el ecuador de un planeta |

## Escribí el tipo de eclipse

LIVEWORKSHEETS

Completá las fases lunares

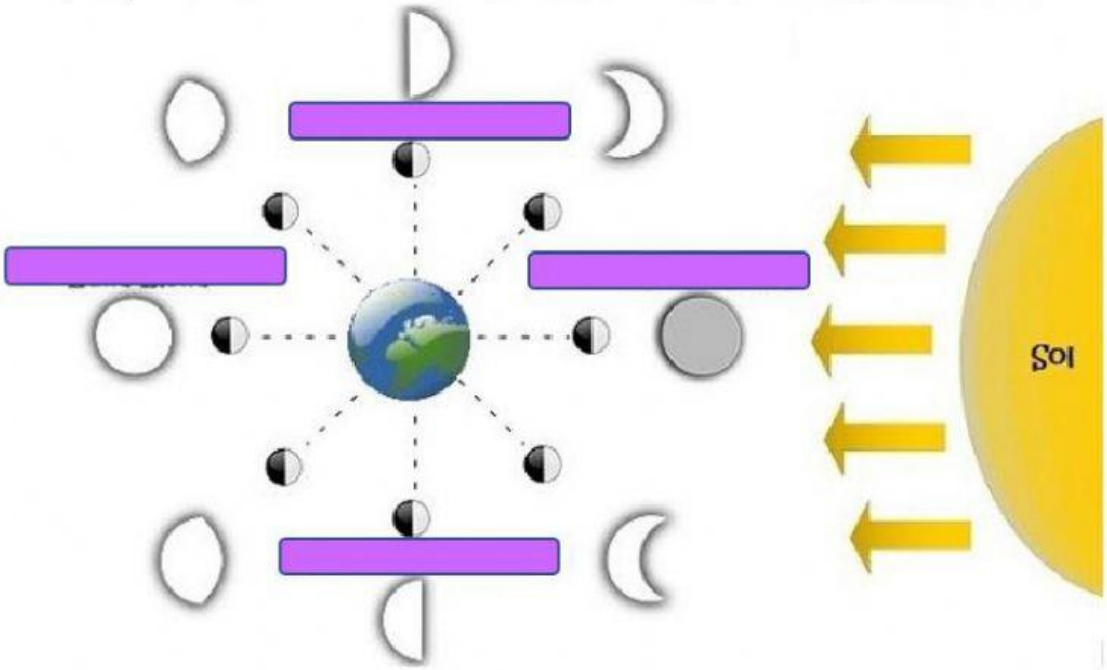


Completá los movimientos terrestres

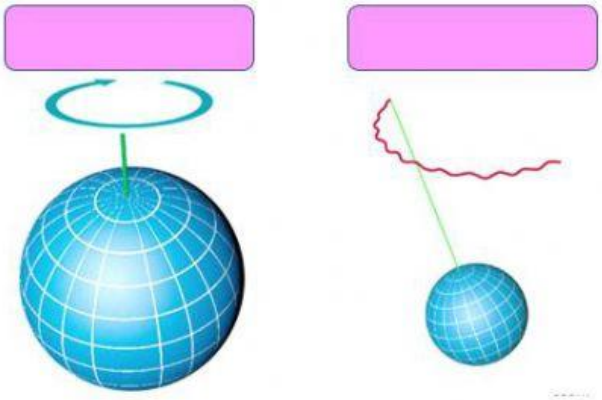

Colocá los nombres según correspondan. Van a sobrar algunas opciones.

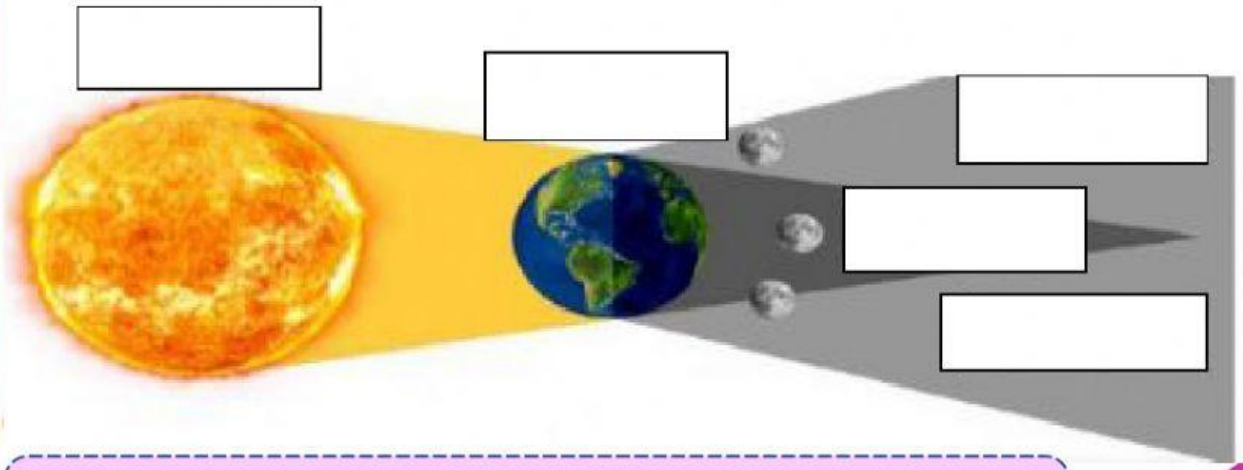

Penumbra, satélite, penumbra, Mercurio, Tierra, Luna, eclipse, penumbra, Sol, Sombra.

LIVEWORKSHEETS