UNIDAD 10

CONTROL 4ºEP

1 Escribe el nombre de los siguientes elementos.

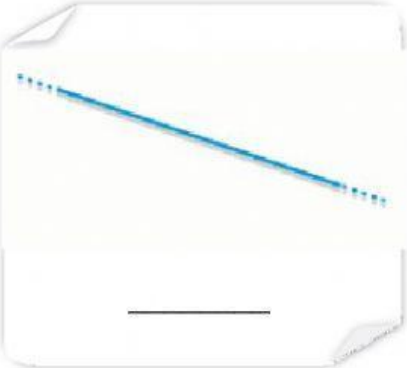

_____

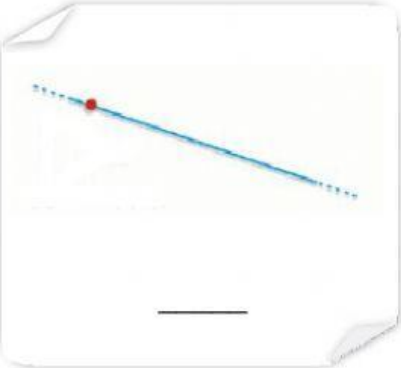

_____

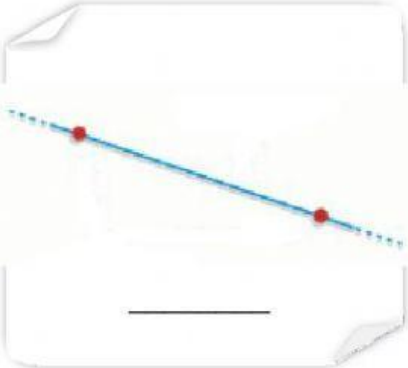

_____

2 ¿Cómo son estas rectas?

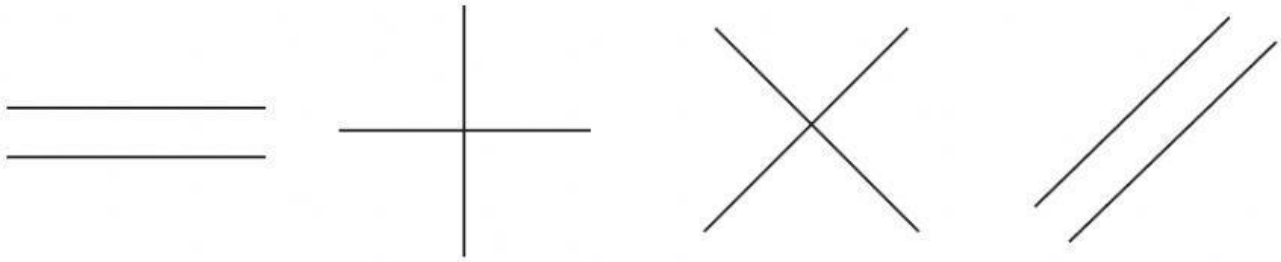

....

3 Di como son estos ángulos:

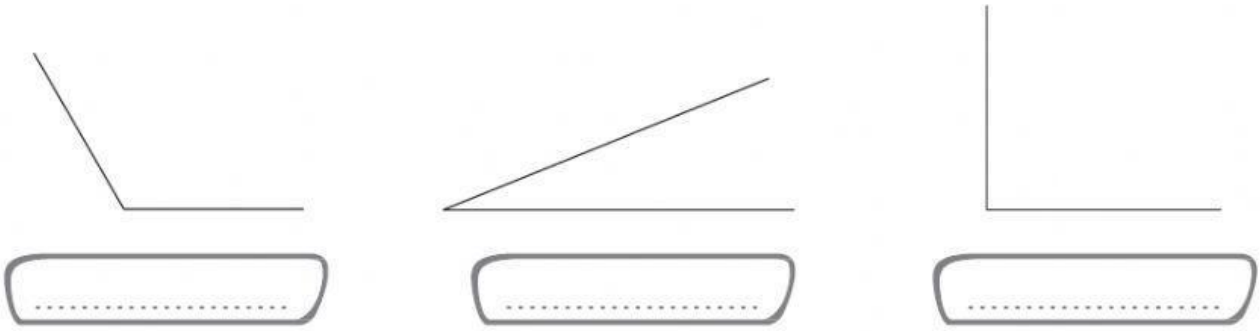

....

4 Elige correctamente:

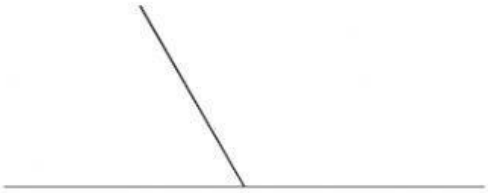

Estos ángulos son _____

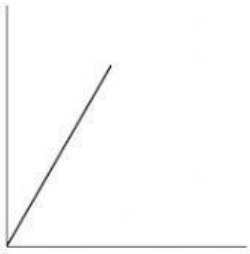

Estos ángulos son _____

LIVEWORKSHEETS

5

Di si estas afirmaciones son verdaderas o falsas, y corrige las falsas.

a) Los ángulos consecutivos no tiene ningún lado en común.

b) Dos ángulos son adyacentes cuando son consecutivos y suman 180°.

c) Los ángulos son llanos cuando miden 90°

d) Un ángulo es completo cuando mide 360°

6 **La clase de cuarto se va de campamento. Como la zona es muy grande, les dan un mapa para que sepan dónde se encuentra cada cosa. Obsérvalo y responde.**

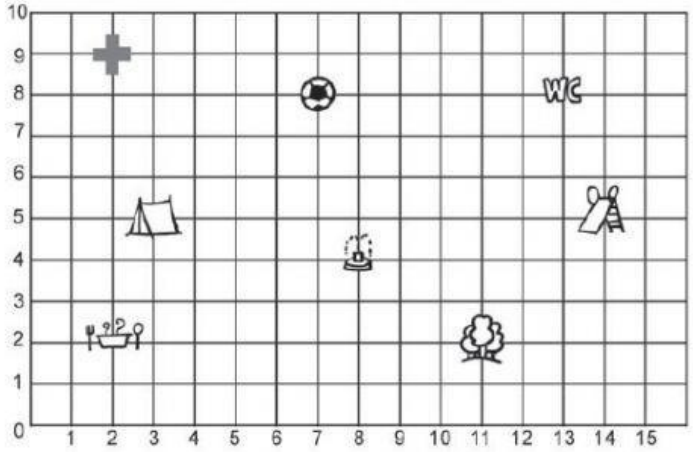

- ¿En qué punto están las tiendas de campaña?

  .....

- ¿A qué punto tendrán que ir si quieren ir a la enfermería?

  .....

- ¿Y si quieren jugar un partido de fútbol?

  .....

LIVEWORKSHEETS