HUMANITAS
BILINGUAL SCHOOL TORREJÓN

Calcula el área de este cuadrado:

Calcula el área de este rectángulo:

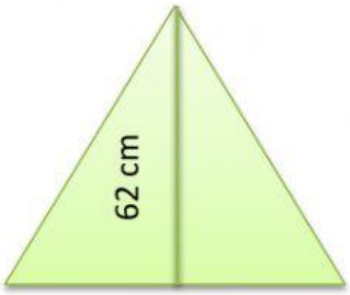

Calcula el área de este triángulo:

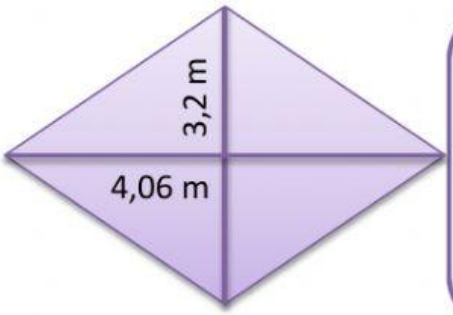

Calcula el área de este rombo:

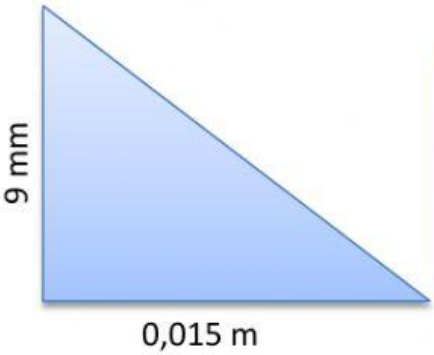

Calcula el área de este triángulo:

HUMANITAS
BILINGUAL SCHOOL TORREJÓN

2,3 dm

Calcula el área de este trapezoide:

6cm

Calcula el área de este romboide:

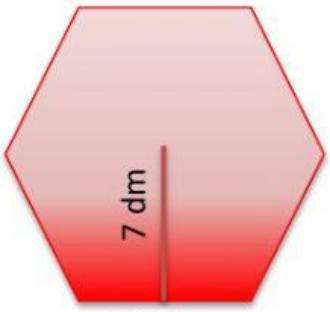

12 dm

Calcula el área de este hexágono:

Calcula el área de este círculo:

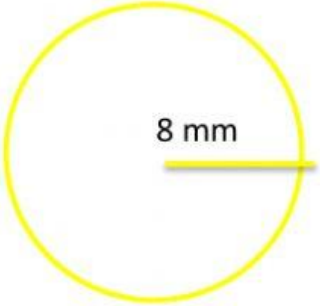

Calcula la longitud de esta circunferencia: