E-LKPD TJBL

NAMA : .....

KELAS : .....

SMK HARAPAN BANGSA

A. Pilihan Ganda

1. Hubungan antara 2 komputer atau lebih yang terhubung dengan media transmisi kabel atau tanpa kabel (wireless) disebut...
   a. Wifi
   b. Jaringan
   c. Topologi
   d. Protokol
   e. Routing
2. Jaringan raksasa ditingkatdunia disebut dengan istilah...
   a. Lokal Area Network (LAN)
   b. Metropolitan Area Network (MAN)
   c. Personal Area Network (PAN)
   d. Wide Area Network (WAN)
   e. Internet
3. perangkat jaringan yang aktif dan intelegant dan dapat beratisipasi dalam mananjemen jaringan disebut...
   a. Router
   b. CSU/DSU
   c. Modem
   d. Comunnication Server
   e. Layer
4. Skema desain pembangunan sebuah jaringan komputer dikenal dengan istilah...
   a. Tipe
   b. Topologi
   c. Geografi
   d. Skalabilitas

LIVEWORKSHEETS

e. Media transmisi

5. Kombinasi pengkabelan straight pada jaringan komputer yang sesuai dengan standart internasional adalah...

   a. White orange – orange - white green – blue - white blue - green – white brown - brown
   b. White orange – orange - white green – green - white blue - blue – white brown - brown
   c. White green – green - white orange – blue - white blue - orange – white brown - brown
   d. White orange – orange - white green - green - white blue - blue – white brown - brown
   e. Orange – white orange – green – white green - white blue - blue – white brown - brown

B. Soal Perjodohan

1. 

2.

3. 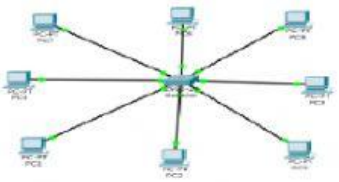

a. Gambar yang menunjukan transmisi Console

b. Gambar yang menunjukan transmisi Cross-over

c. Gambar yang menunjukan transmisi Fiber Optic

LIVEWORKSHEETS

4. 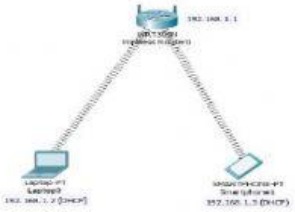

5. 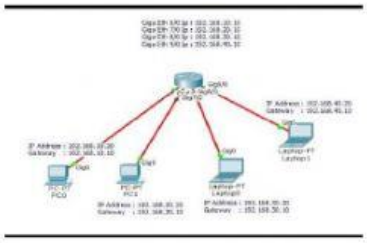

d. Gambar yang menunjukan transmisi Wireless

e. Gambar yang menunjukan transmisi Straight

LIVEWORKSHEETS