UZUNLUKLARI ÖLÇME

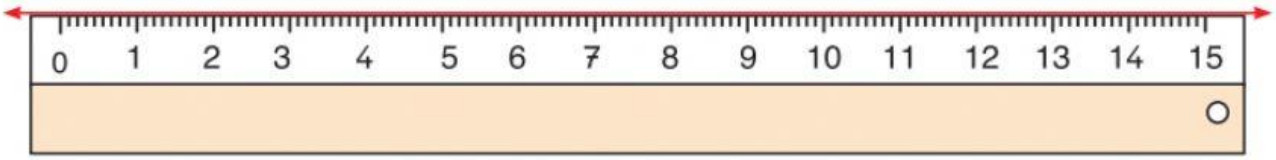

Yukarıda cetvel yardımıyla oluşturulan sayı doğrusunu kullanarak aşağıda verilen cisimlerin uzunluklarının ölçüm sonuçlarını yazınız.

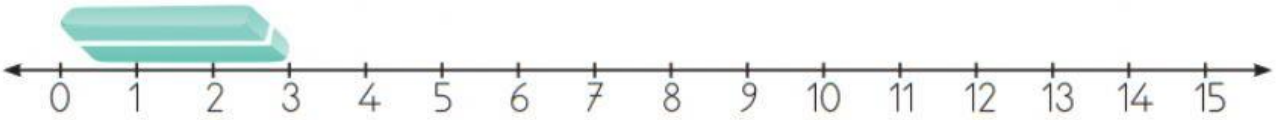

Silginin uzunluğu: _____ cm

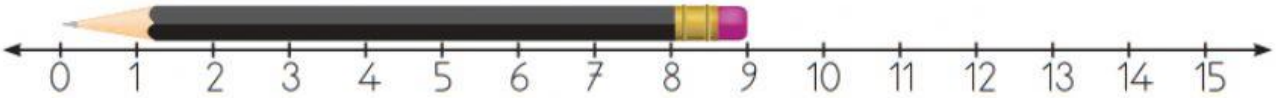

Kalemin uzunluğu: _____ cm

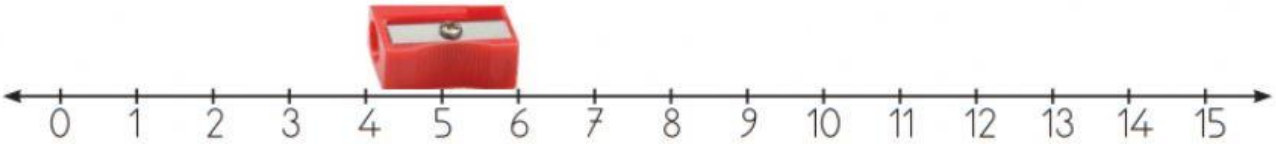

Kalemtıraşın uzunluğu: _____ cm

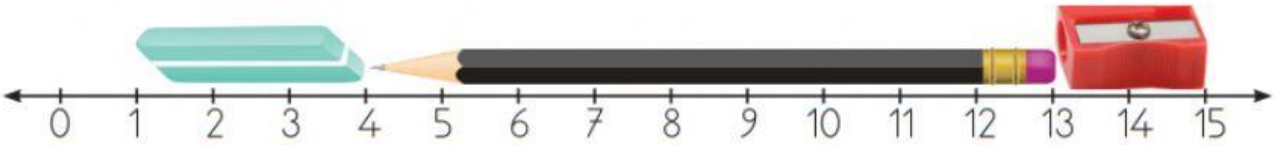

Silginin uzunluğu: _____ cm

Kalemin uzunluğu: _____ cm

Kalemtıraşın uzunluğu: _____ cm

Cisimlerin toplam uzunluğu: _____ cm

LIVEWORKSHEETS