Підсумкова діагностична робота з математики 1 клас

1. Встав пропущені числа.

56, 57, ___, 59, 60, ___, ___, 63.

39, 38, ___, ___, 35, ___, 33, 32.

2. Знайди значення виразів.

46 + 40 = 27 + 22 =

70 + 25 = 95 – 85 =

34 – 23 = 64 + 33 =

3. Порівняй.

20 + 34 __ 54 5 см __ 5 дм

10 + 80 __ 79 1 дм 4 см __ 8 см

4. Перетвори іменовані числа

10 см = __ дм 45 см = __ дм __ см

1 дм 3 см = __ см 5 дм 7 см = __ см

5. Вкажи, хто з дітей правильно виміряв довжину відрізка.

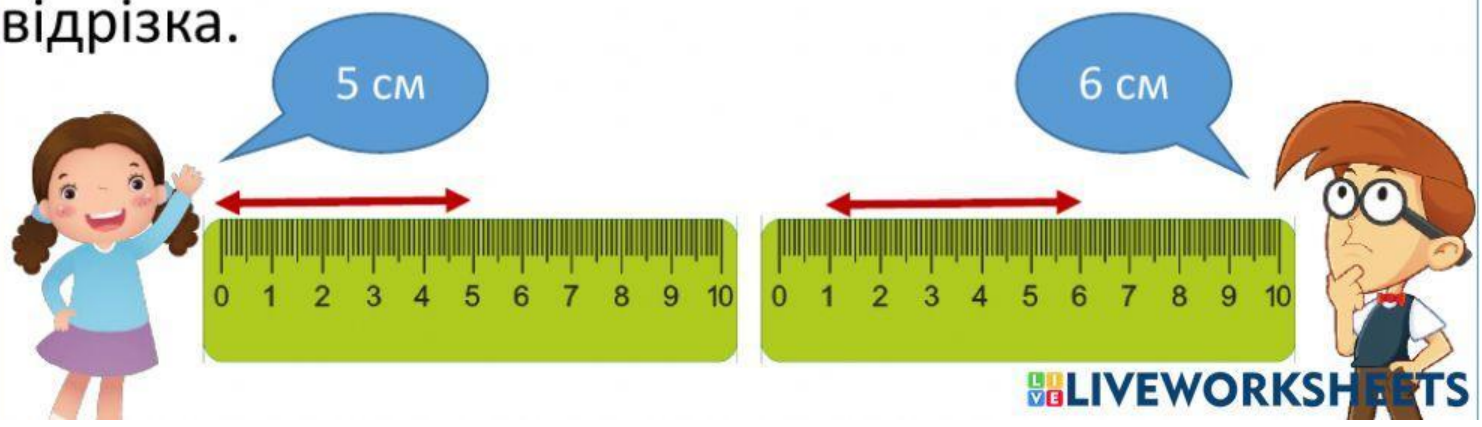

LIVEWORKSHEETS

6. Добери короткий запис та схему до задачі. Розв'яжи задачу.

Квочка висиділа 15 курчат. Із них 3 сірих, а решта – жовті. Скільки жовтих курчат висиділа квочка?

Короткий запис

Схема

Розв'язок

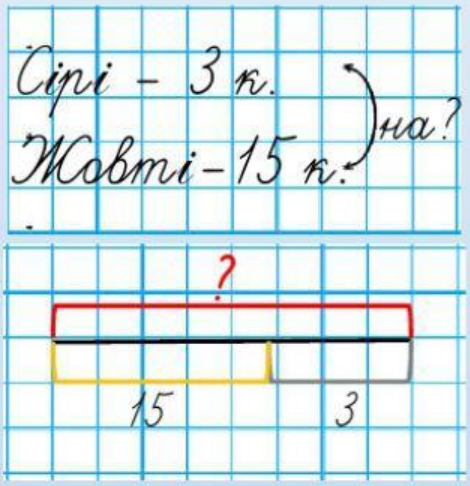

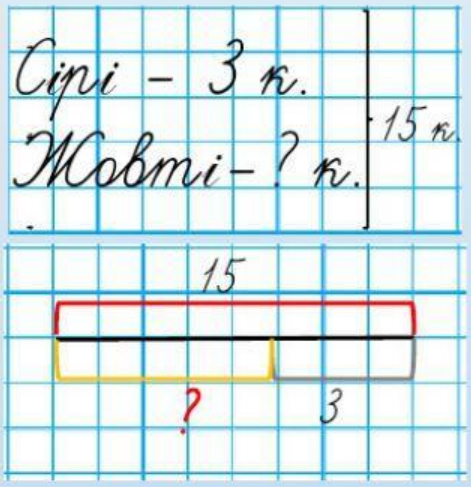

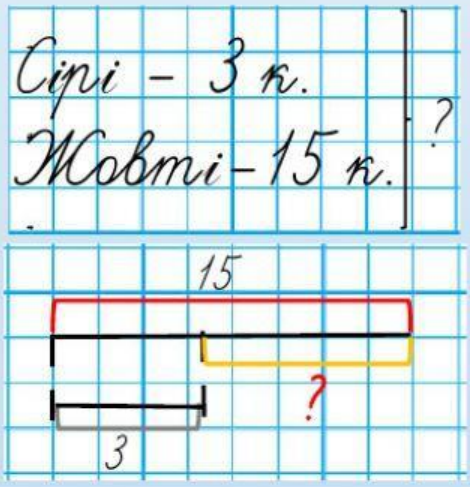

7. Знайди довжину другого відрізка

Перший відрізок:

Другий відрізок – ?,
на 2 см довший.

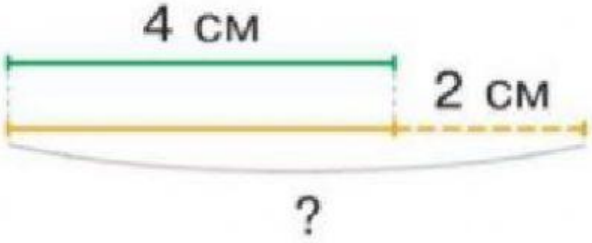

Відповідь: см

Оціни свою роботу!
Чи все тобі вдалось?



LIVEWORKSHEETS