MODELADO DE LOS RÍOS

Los ……. son cauces de agua permanentes de largo recorrido que desemboca en un lago o en el mar. Modelan el relieve y forman los **Valles** …….

PARTES O TRAMOS DE UN RÍO (ALTO, MEDIO Y BAJO)

- **CURSO** ……. Elevada **pendiente**. Agua que contien mucha **Energía** y circula a gran **velocidad**. Predomina la ……. y el Transporte.
- **CURSO MEDIO y BAJO.** Menor pendiente. Menor velocidad del agua. Predomina Transporte y Sedimentación.

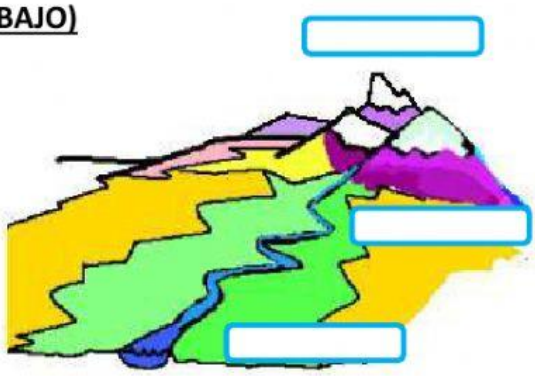

FORMAS DE RELIEVE

- **CURSO ALTO.** Valles en V, Gargantas o Cañones, Cascadas.
- **CURSO MEDIO Y BAJO.** Valles en Artesa, Meandros, Terrazas Fluviales, Deltas y Estuarios.

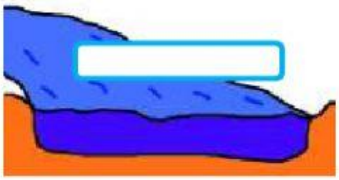

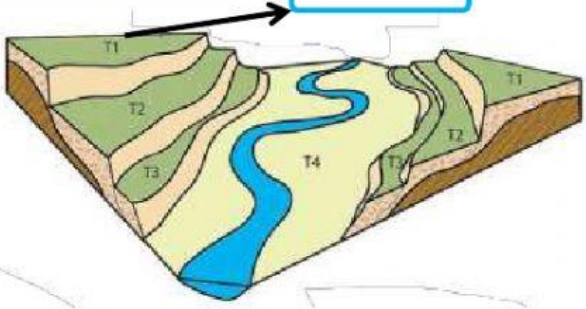

LIVEWORKSHEETS