ĐỀ KHẢO SÁT CHẤT LƯỢNG ĐẦU NĂM – SỐ 3

I. Phần trắc nghiệm. *(3,5 điểm)*

Khoanh tròn vào chữ cái đặt trước câu trả lời đúng.

Câu 1. Số gồm **2 trăm, 5 chục, 1 đơn vị** được viết là:

A. 251 **B.** 215 **C.** 512 **D.** 152

Câu 2. Trong các số **214, 178, 187, 241**. Số bé nhất là:

A. 214 **B.** 178 **C.** 187 **D.** 241

Câu 3. *"1m 3dm = ...cm"*. Số thích hợp điền vào chỗ chấm là:

A. 13 **B.** 103 **C.** 130 **D.** 31

Câu 4. Mẹ cắm hoa vào 6 lọ, mỗi lọ 5 bông hoa thì vừa đủ. Mẹ có số bông hoa là:

A. 32 bông **B.** 30 bông **C.** 56 bông **D.** 65 bông

Câu 5. **4 giờ 15 phút chiều** còn được gọi là:

A. 15 giờ 15 phút **B.** 16 giờ 15 phút **C.** 17 giờ 15 phút **D.** 15 giờ 5 phút

Câu 6. Hiệu của số lớn nhất có ba chữ số khác nhau và số nhỏ nhất có một chữ số là:

A. 998 **B.** 876 **C.** 999 **D.** 987

Câu 7. Hình sau có số hình tam giác là:

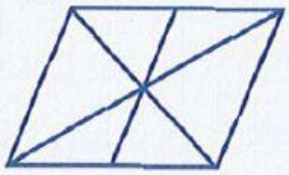

A. 10 hình **B.** 12 hình **C.** 13 hình **D.** 11 hình

II. Phần tự luận. *(6,5 điểm)*

Bài 1. Đặt tính rồi tính. *(1 điểm).*

a) 14 + 142 **b)** 247 – 145 **c)** 27 + 48 **d)** 258 – 125

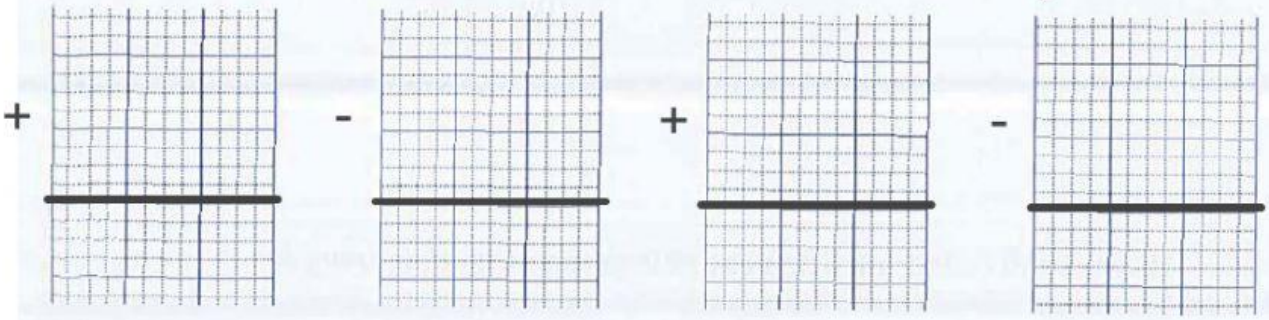

Bài 2. Đúng ghi "đ", sai ghi "s" vào ô trống: *(2 điểm)*

a) 171dm + 120dm = 291 ☐ **c)** 926km – 515km = 311km ☐

LIVEWORKSHEETS

b) $658l - 217l = 441l$

d) 419cm + 10cm = 429cm

Bài 3. Tính. *(1 điểm).*

a) $\begin{array}{r} 243 \\ +\ 145 \\ \hline \end{array}$

b) $\begin{array}{r} 597 \\ -\ 415 \\ \hline \end{array}$

c) $\begin{array}{r} 523 \\ -\ 101 \\ \hline \end{array}$

d) $\begin{array}{r} 977 \\ -\ 245 \\ \hline \end{array}$

Bài 4. Giải bài toán theo tóm tắt sau: *(1,5 điểm)*



Bài giải

Bài 5. a) Tính chu vi của tứ giác ABCD như hình vẽ. *(0,5 điểm).*

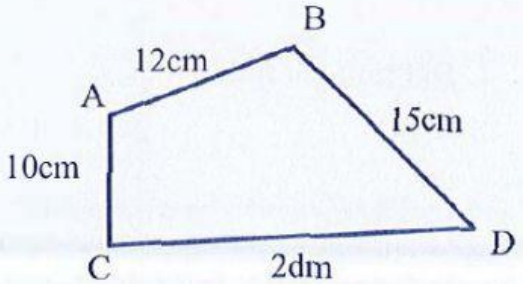

b) Viết các số có ba chữ số mà các chữ số của nó có tổng bằng 3. *(0,5 điểm)*

LIVEWORKSHEETS