School Loris Malaguzzi

Creatividad - Autonomía - Innovación

INICIAL - PRIMARIA – SECUNDARIA

GRÁFICOS ESTADÍSTICOS

En el siguiente gráfico de barras, se representa la preferencia de un grupo de trabajadores por cierto tipo de color.

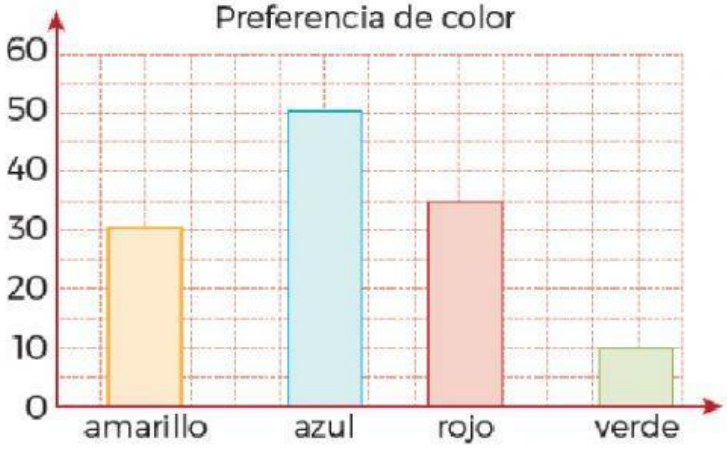

¿Cuántas personas más prefieren el color amarillo que el color verde?, ¿Qué porcentaje de personas prefieren el color azul?

a. 20 y 40% b. 30 y 20% c. 40 y 20% d. 15 y 40%

Se muestra un gráfico de líneas con relación a los movimientos sísmicos durante el año 2018:

2. ¿Cuál es la diferencia entre el número de movimientos ocurridos en junio y febrero?

a. 6 b. 4 c. 2 d. 1

3. ¿Cuántos movimientos más ocurrieron en diciembre con respecto a julio?

a. 10 b. 11 c. 12 d. 13

Nada sin Alegría

LIVEWORKSHEETS

En el siguiente gráfico circular, se representa las Eventas diarias de una tienda de víveres:

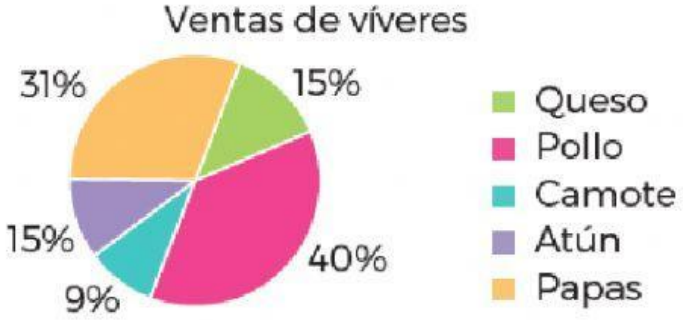

4. Determina el ángulo que le corresponde al sector con mayor venta.

a. 150° b. 144° c. 110° d. 100°

El siguiente histograma fue el resultado de una encuesta a un grupo de estudiantes sobre sus puntuaciones en estadística:

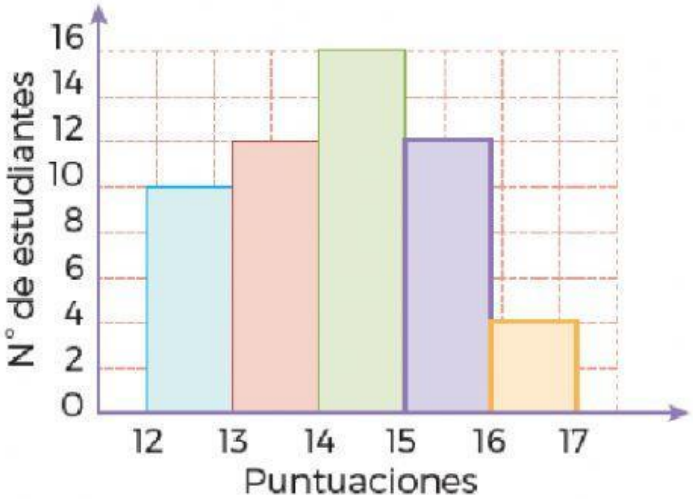

5. ¿Cuántos estudiantes fueron encuestados?

a. 51 b. 53 c. 54 d. 55

7. Halla la cantidad de estudiantes que obtuvieron entre 12 y 15 puntos.

a. 40 b. 39 c. 38 d. 35