ЗАВДАННЯ №1

Пригадайте фігуру та її назву (з'єднувати)

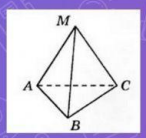

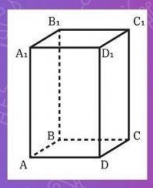

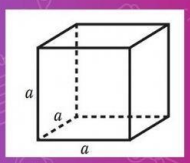

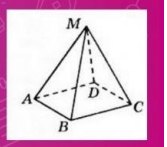

Чотирикутна піраміда

Прямокутний паралелепіпед

Трикутна піраміда

Куб

Знайди об'єм (впиши тільки відповідь)

Формула об'єму прямокутного паралелепіпеда
$V = a \cdot b \cdot c$, де a, b, c – ребра паралелепіпеда

Довжина – 16 см, ширина - 5 см, висота – 20 см

Довжина – 4 дм, ширина - 2,5 дм, висота – 7 дм

Куб з ребром 0,2 м

Довжина – 8 мм, ширина - 1,25 мм, висота – 2,5 мм

Цікавий факт



Найвідоміший приклад куба в світі
Ку́бик Ру́бика (часто: кубик-рубик) - механічна головоломка, яку винайшов 1974 року угорський скульптор, винахідник Ерньо Рубик. Ерно Рубик назвав свій винахід «Магічний куб», але у 1980 році компанія Ideal Toys перейменувала головоломку за іменем винахідника і цього ж року виграла німецьку нагороду «Гра року» (Spiel des Jahres).

Натисни на посилання, щоб перейти до наступного завдання

Наступне завдання

LIVEWORKSHEETS