Робота з даними

1 Доповни схеми.

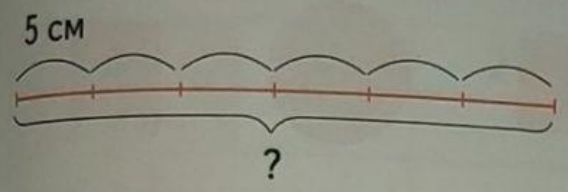

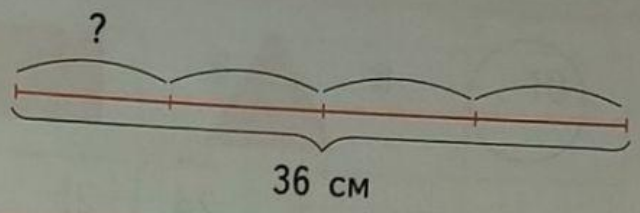

2 Вибери правильну відповідь. Підкресли її.

(51 + 17) − 24 = ☐☐ (45; 44; 43)

(63 − 53) · 8 = ☐☐ (80; 72; 88)

(55 + 41) − 87 = ☐☐ (19; 9; 11)

80 : 10 + 18 = ☐☐ (24; 88; 26)

8 : 8 + 28 = ☐☐ (29; 44; 28)

21 : 7 · 10 = ☐☐ (70; 30; 17)

3 Скільки яких фігур використано на малюнку?

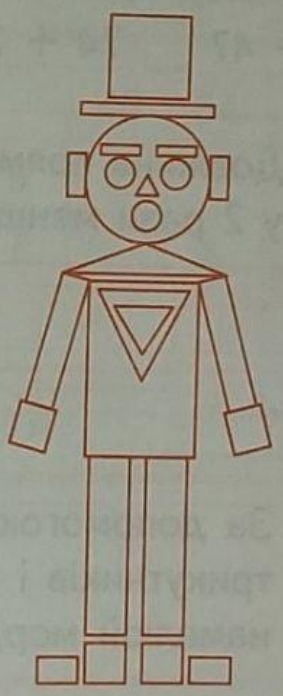

▭	□	▷	○

4 Склади задачу за коротким записом і розв'яжи її. Склади вираз.

Червень — 30 д.
Липень — 31 д.
Серпень — 31 д.
} ?

Відповідь: ☐☐☐☐☐☐☐☐

LIVEWORKSHEETS