Patrones y figuras geométricas.

2º Matemáticas #Hoja III.56

Fecha: 27/04/2022

Nombre del alumno: _____Grupo: ____

Formula expresiones de primer grado para representar propiedades (perímetros y áreas) de figuras geométricas y verifica la equivalencia de expresiones, tanto algebraica como geométricamente (análisis de las figuras).

Lee y resuelve los siguientes planteamientos.

¿Qué es Among Us algebraico? *El principal objetivo de este juego es descubrir quién es el impostor de una tripulación de expresiones algebraicas que intenta justificar el perímetro de algunas figuras. En cada partida hay 6 tripulantes, de los cuales los que no son equivalentes son los impostores.* ***¿podrás encontrar a los impostores?***

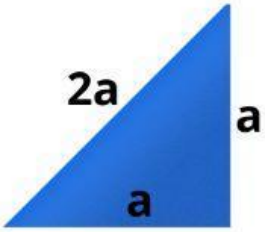

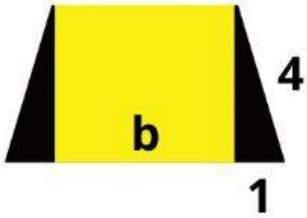

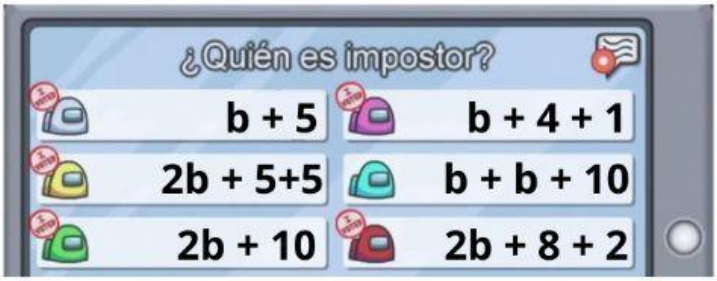

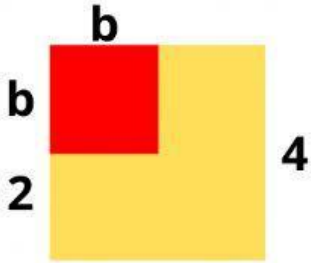

Comparte con algún familiar en casa tus resultado y explicale como los encontraste.

Nombre y firma del tutor: _____

Nota: Recuerde que antes de firmar esta actividad, debe verificar que venga con procedimientos y operaciones.

LIVEWORKSHEETS