EL COLE EN CASA 19-05-2020

Nombre _____ Fecha _____

RECUERDA

El **gramo** es una unidad de masa menor que el kilogramo.

- 1 kilogramo es igual a 1.000 gramos ► 1 kg = 1.000 g.

1 Completa.

- 12 kg = _____ g
- 21 kg = _____ g
- 14.000 g = _____ kg
- 52.000 g = _____ kg

2 Calcula.

- 2 kg y 3 g = _____ g
- 9 kg y 815 g = _____ g
- 21 kg y 730 g = _____ g
- 7.005 g = _____ kg y _____ g
- 9.300 g = _____ kg y _____ g
- 12.125 g = _____ kg y _____ g

3 ¿Cuántos gramos son? Calcula y completa.

- medio kilo = _____ g
- un cuarto de kilo = _____ g
- tres cuartos de kilo = _____ g
- 4 kilos y medio = _____ g
- 8 kilos y cuarto = _____ g
- 6 kilos y tres cuartos = _____ g

4 Lee y resuelve. ESCRIBE EN LOS PROBLEMAS NADA MÁS QUE LA SOLUCIÓN.

Alicia compró 6 latas de espárragos de medio kilo cada lata. ¿Cuántos kilos de espárragos compró Alicia?

SOLUCIÓN:

Alicia compró _____ kg

Ernesto tiene 12 paquetes de café. Cada paquete pesa un cuarto de kilo. ¿Cuántos gramos pesan los 12 paquetes?

SOLUCIÓN:

Pesan _____ g

Nombre _____ Fecha _____

RECUERDA

La **tonelada** es una unidad de masa mayor que el kilogramo.

- 1 tonelada es igual a 1.000 kilogramos ► 1 t = 1.000 kg.

5 **¿Cuál es el peso más apropiado?** Marca con una "X"



15 kg 700 g 8 t

4 t 10 kg 100 g

10 kg 2 t 150 g

6 **Completa.**

- 1 t = 1.000 kg
- 6 t = _____ kg
- 13 t = _____ kg
- 20 t = _____ kg
- 4.000 kg = 4 t
- 15.000 kg = _____ t
- 32.000 kg = _____ t
- 48.000 kg = _____ t

7 **Expresa el peso de estos animales en kilos.**



► 2 t y 150 kg = _____ kg



► 4 t y 50 kg = _____ kg



► 30 t y 12 kg = _____ kg