Observa estos objetos:

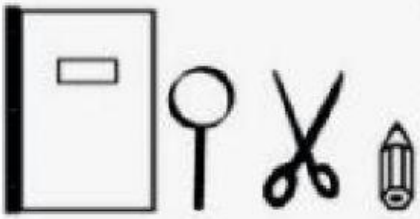

¿Cuál tiene mayor longitud? .....

¿Cuál tiene menor longitud? .....

¿Cuáles tienen más o menos igual longitud?

..... y .....

En cada ☐ escribe los números del 1 al 3 para ordenar los elementos según su longitud. Empieza por el más corto.

**1.**

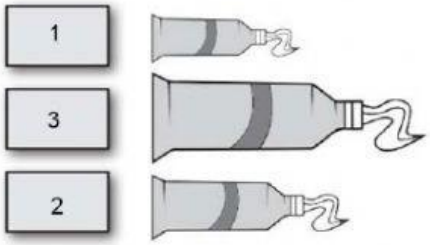


**2.**



**3.**

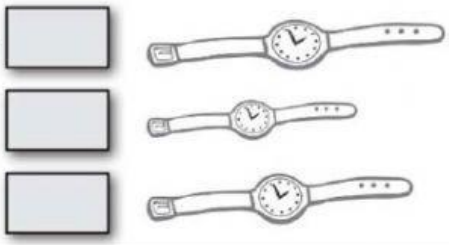

**4.**



**5.**



**6.**

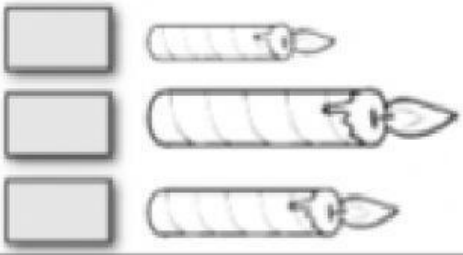

**7.**



**8.**

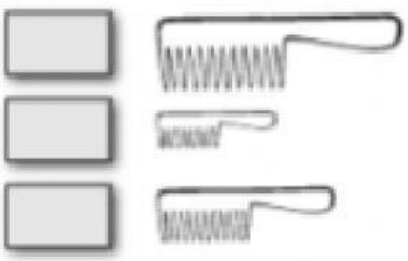

# Comparando longitudes

Observa y responde:

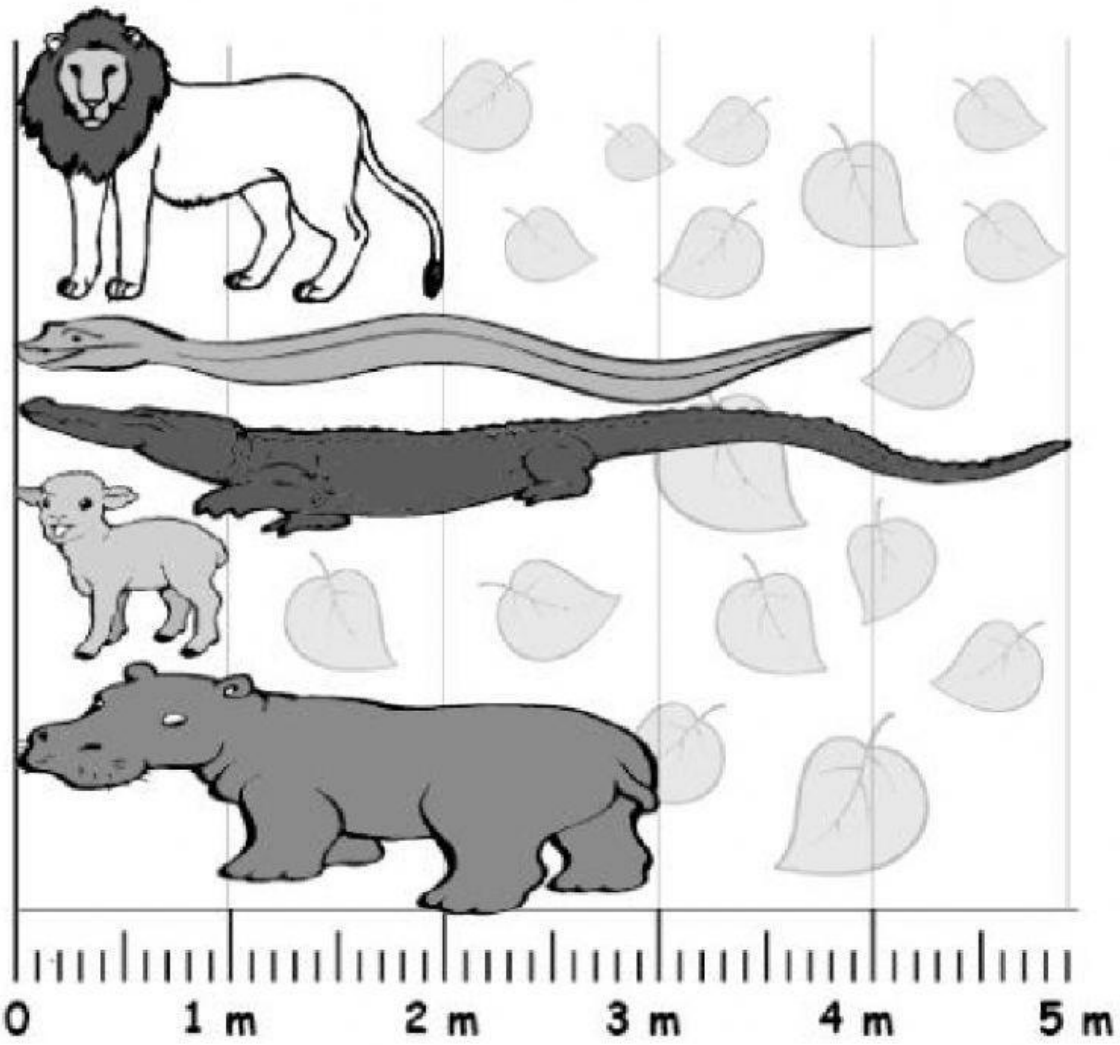


¿Qué animal es el más largo? _____

¿Cuánto más largo es el cocodrilo que la oveja? _____

¿Cuánto más corto es el león que el cocodrilo? _____

¿Cuánto más largo es la serpiente que el hipopótamo? _____

¿Cuánto más corto es el hipopótamo que el cocodrilo? _____

www.recursosdocentes.cl

# Comparando alturas

Observa y responde:




¿Qué animal es el más alto? _____

¿Qué animal es el más bajo? _____

¿Cuánto más alto es el elefante que el león? _____

¿Cuánto más bajo es el camello que la jirafa? _____

¿Cuánto más alta es la jirafa que el león? _____

¿Cuánto más bajo es el camello que el ñandú? _____

www.recursosdocentes.cl