ชื่อ.....นามสกุล.....

ใบงานที่ 2

2.1 ให้นักเรียนลากคำตอบลงในช่องว่างใต้รูปเรขาคณิต 2 มิติ ให้ถูกต้อง

รูปสี่เหลี่ยม	รูปสามเหลี่ยม	รูปห้าเหลี่ยม
รูปวงกลม	รูปวงรี	





2.2 ให้นักเรียนเลือกช่องที่เป็นรูปเรขาคณิต 3 มิติ

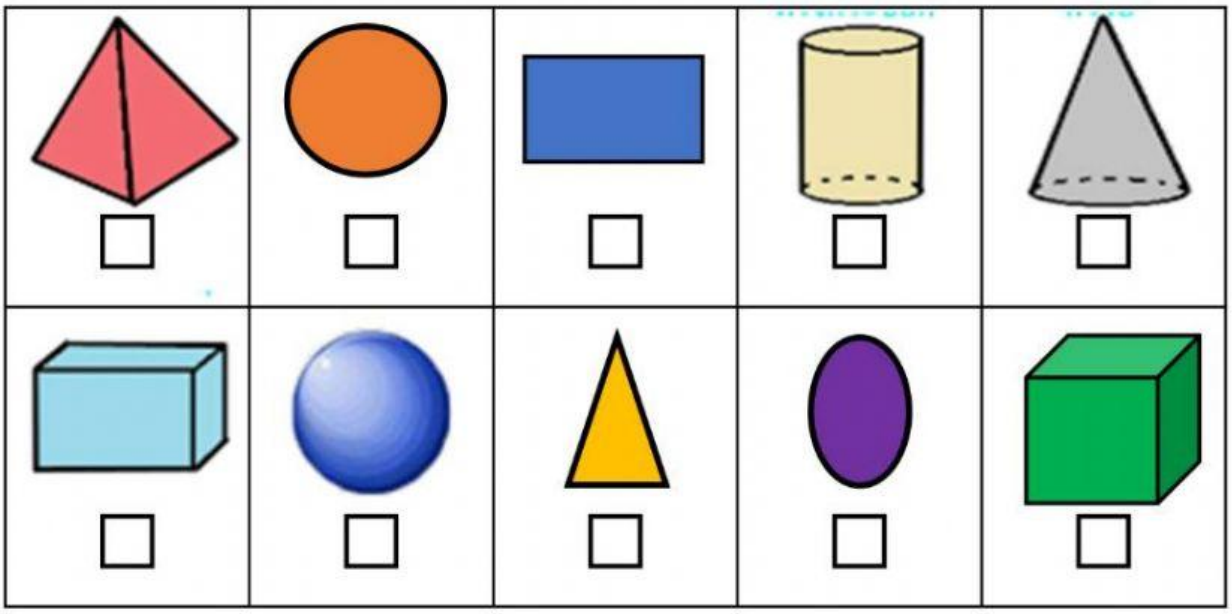

LIVEWORKSHEETS