Математика (28.04)

1. Віднови розв'язання.

```
 _ 3 5 6 0 7 | 8 3
   [ ][ ][ ]   |-----
   -------     | 4 2 9
 - [ ][ ][ ]
   [ ][ ][ ]
   -------
     7 4 7
   - [ ][ ][ ]
     -------
           0
```

```
      4 [ ] 3
    ×     2 [ ]
    ---------
    +   [ ] 8 3
    +   [ ][ ][ ]
    ---------
    [ ][ ][ ][ ][ ]
```

```
      3 1 8
    ×     [ ][ ]
    ---------
    +   [ ][ ] 9 0
    +   [ ] 5 4
    ---------
    [ ][ ][ ][ ][ ]
```

2. Обери відповідний малюнок.

Андрій виготовив модель геометричної фігури. На малюнку зображена розгортка цієї фігури. Зафарбуй фігуру, яка вийшла в Андрія.

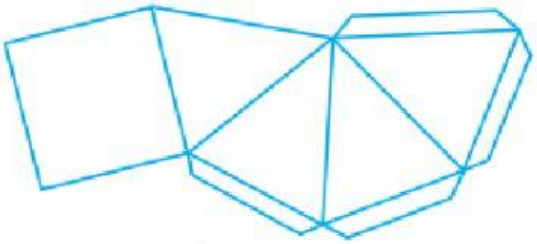

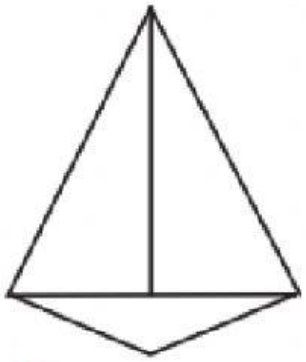

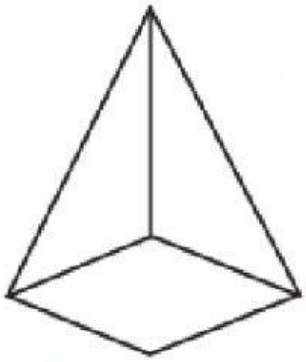

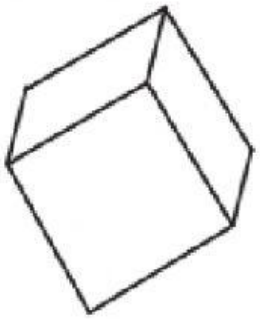

3. Впиши пропущені дані.

Рухомий об'єкт	Швидкість руху	Час руху	Шлях
Легковий автомобіль	100 км/год		500 км
Вантажівка	65 км/год	7 год	
Лижник		12 с	60 м
Вертоліт	280 км/год		840 км
Пішохід		15 хв	900 м

LIVEWORKSHEETS

4. Прочитай задачу та обери схему, яка їй відповідає, та розв'яжи її.

Автомобіль їхав 4 год зі швидкістю 100 км/год і 5 год — зі швидкістю 120 км/год. Який шлях подолав автомобіль?

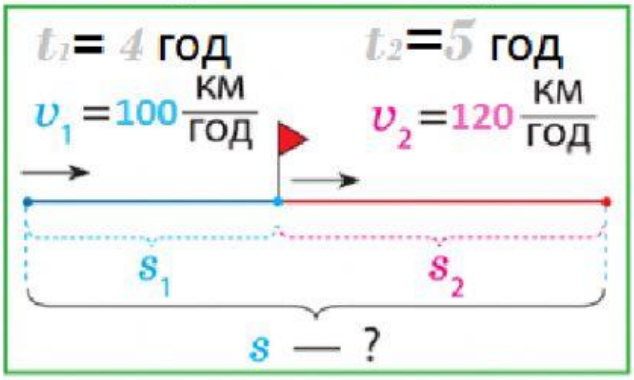

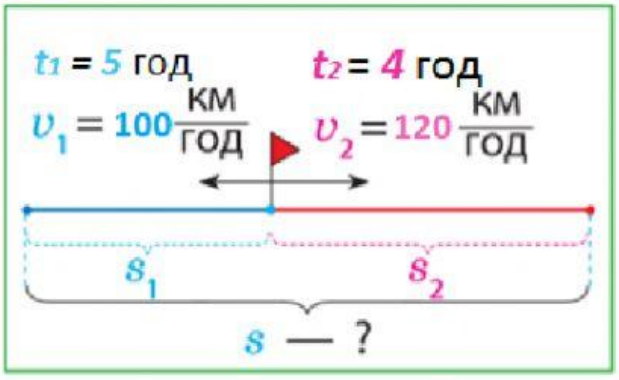

Скільки кілометрів проїхав автомобіль за 4 год?

1) (км)

Скільки кілометрів проїхав автомобіль за 5 год?

2) (км)

Скільки всього кілометрів проїхав автомобіль?

3) (км)

В: _____ _____.

LIVEWORKSHEETS