KINGDOM OF BAHRAIN
MINISTRY OF EDUCATION
ZALLAQ PRIMARY INTERMEDIATE BOYS SCHOOL
School:17631116 – Fax: 17631996
Teachers: 17630942 - 17632646

مملكة البحرين
وزارة التربية والتعليم
مدرسة الزلاق الابتدائية الإعدادية للبنين
الادارة: 17631116 – فاكس: 17631996
المرشد الاجتماعي: 17632538

الاسم :---------- الصف : 3ع/--------

س1: حدد فيما اذا كان المثلثان في الاشكال التالية متشابهان أم لا ؟

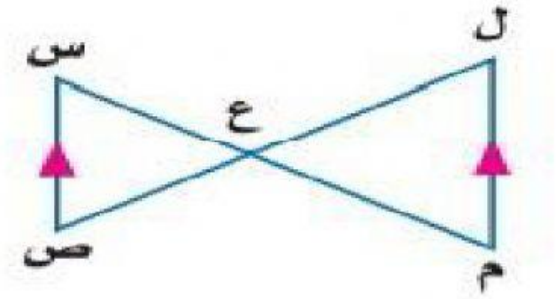

متشابهان **غير متشابهين**

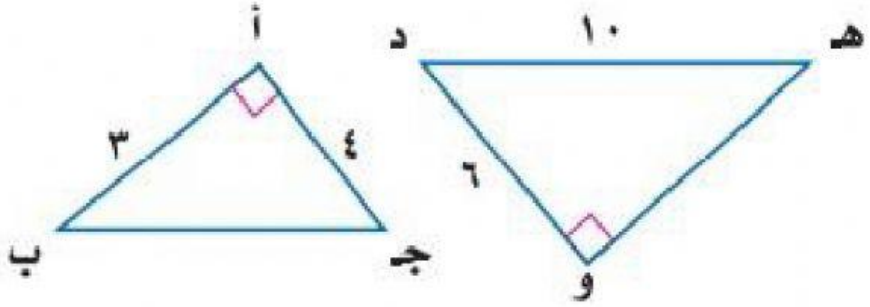

متشابهان **غير متشابهين**

LIVEWORKSHEETS

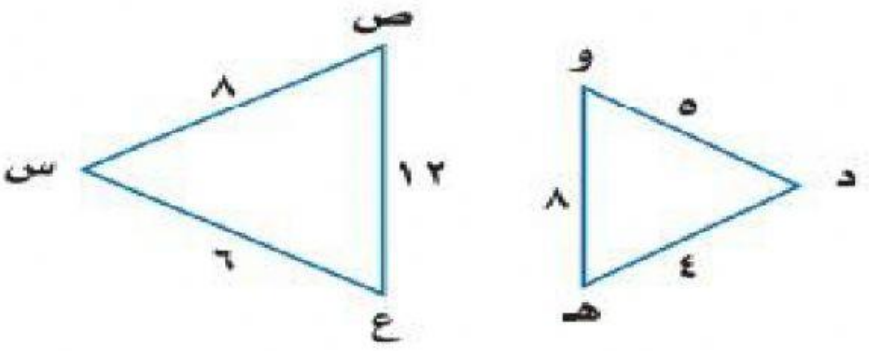

متشابهان

غير متشابهين

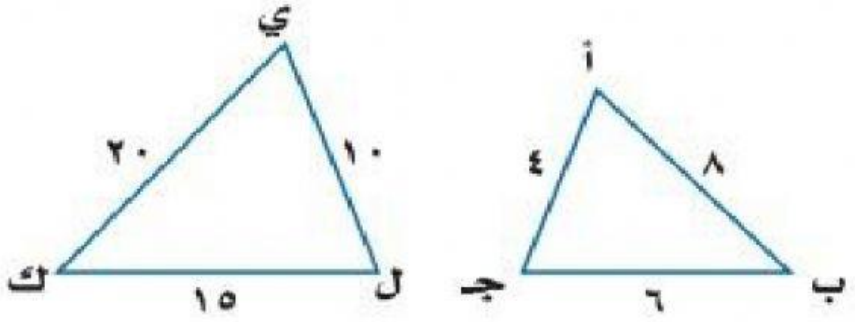

متشابهان

غير متشابهين

LIVEWORKSHEETS

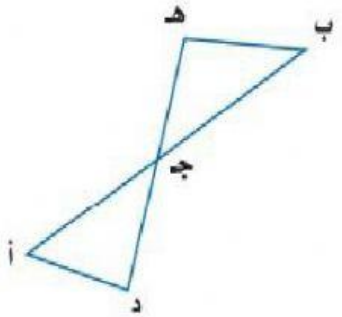

اختيار من متعدّد: في الشكل المجاور $\overline{\text{أب}}$ تقطع $\overline{\text{دهـ}}$ عند النقطة جـ. أيّ المعلومات الإضافية الآتية كافية لإثبات أن △أدجـ ~ △ب هـ جـ؟

أ) ∠دأجـ ≅ ∠هـجـب .

ب) $\overline{\text{أجـ}}$ ≅ $\overline{\text{ب جـ}}$.

جـ) $\overline{\text{أد}}$ // $\overline{\text{هـ ب}}$.

د) ∠جـ ب هـ زاوية قائمة.

LIVEWORKSHEETS