IMÓDULO: MECANIZACION E INSTALACIONES AGRARIAS.
FICHA PRÁCTICA: MOTOR DE 2 TIEMPOS. SEÑALE LAS DIFERENTES PARTES EN EL SIGUIENTE DIBUJO. DIGA LAS FUNCIONES DE CADA ELEMENTO SEÑALADO.

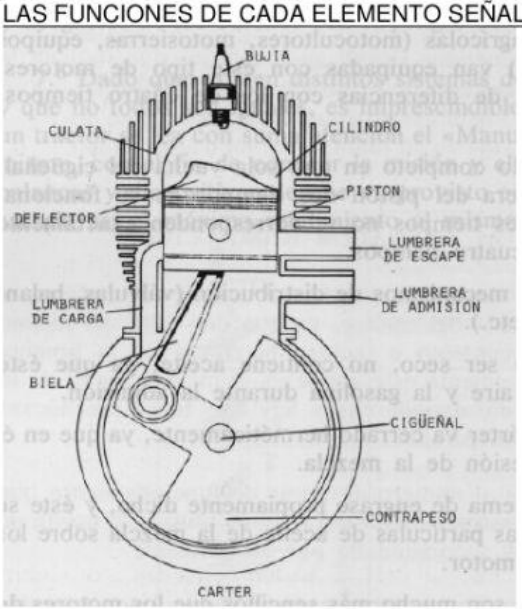

Foto 7. Pistón con segmentos.

Foto 10. Biela con cigueñal y cilindro.

LIVEWORKSHEETS

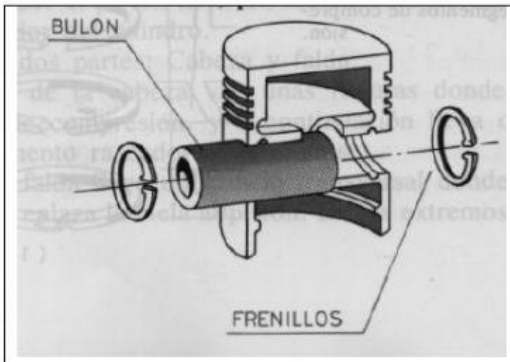	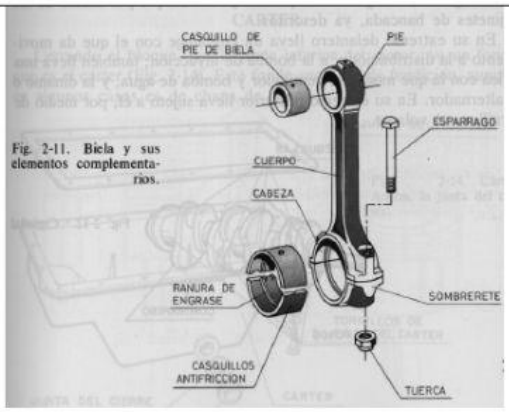 Fig. 2-11. Biela y sus elementos complementarios.

----------	----------

LIVEWORKSHEETS