Вартість. Одиниці вимірювання вартості

1 «Розміняй» зображені купюри. Заповни клітинки.





□□ купюр по 10 грн

□ купюр по 10 грн

□ купюри по 5 грн

2 Знайди невідомі компоненти та результати дій.

□□ + 16 = 82

10 + 68 = □□

64 : □ = 8

□□ − 14 = 39

73 − 12 = □□

□□ : 5 = 7

70 : □□ = 7

□□ : 10 = 6

7 · □ = 42

3 Розглянь малюнки. Знайди решту.

1

2

Решта

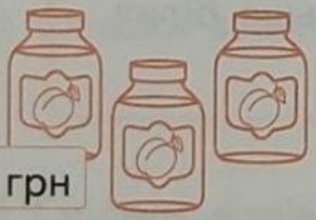

15 грн

1

2

3 кг

1 кг

20 грн

4 Купили 2 кг цибулі по 7 грн за 1 кг, 5 кг картоплі по 10 грн за 1 кг. Всього витратили □□ гривень.

5 Намалюй незамкнену ламану, що має 10 ланок.

LIVEWORKSHEETS