Математичні задачі та дослідження

1 Обчисли значення виразів. Додай усі результати і перевір себе.

(78 − 50) : 7 = □

14 + 49 : 7 = □□

(37 − 16) : 7 = □

6 + 54 : 6 = □□

(6 + 54) : 6 = □□

40 : 8 · 9 = □□

□ + □□ + □ + □□ + □□ + □□ = 98

2 Порівняй значення виразів.

12 хв + 22 хв □ 5 хв · 6

19 хв − 14 хв □ 48 хв : 6

3 У 2 класі в середу було 3 уроки, а в 10 — 6 уроків. У скільки разів у 10 класі уроків було більше, ніж у 2? На скільки уроків було менше у 2 класі, ніж у 10?

1) 

2)

4 Заповни таблицю.



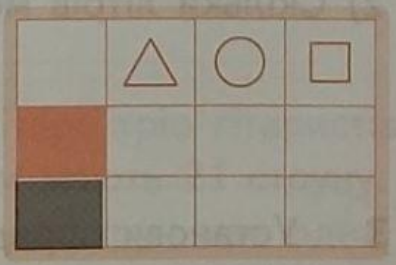

5 Порівняй.

7 ц □ 100 кг

6 Заповни пропуски.

У 10 страусів □□ лап, а у 2 собак □.

LIVEWORKSHEETS