3 KLASĖS MOKYMOSI PROGRAMOS DIAGNOSTINIS TESTAS (I var.)

Matematika

Mokinio vardas, pavardė: _____ Data: _____

1. Parašyk žodžiais skaičių **2005**. 1 taškas

_____

2. Į langelius įrašyk gretimus skaičius. 1 taškas

[ ], 709, [ ]

3. Išbrauk skaičių, trukdantį visus skaičius pavadinti vienu žodžiu. 1 taškas

13, 29, 41, 52, 65, 77

4. Sporto mokykla pirko lauko ir stalo teniso kamuoliukų. Kiek kamuoliukų nupirko iš viso? 1 taškas

150 vnt.

50 vnt.

Atsakymas: _____ kamuoliukų.

5. Iš duotų skaitmenų sudaryk didžiausią galimą triženklį skaičių. To paties skaitmens kartoti negalima. 1 taškas

1 3 6 7

Atsakymas: _____

6. Parašyk skaitmenį, kuris šiame skaičiuje reiškia dešimtis. 1 taškas

426

Atsakymas: _____

7. Apskaičiuok: 4 taškai

a) $\begin{array}{r} 287 \\ +\ 465 \\ \hline \end{array}$ b) $\begin{array}{r} 789 \\ -\ 258 \\ \hline \end{array}$ c) $\begin{array}{r} 217 \\ \times\ 7 \\ \hline \end{array}$ d) $56 \,|\, 8$

LIVEWORKSHEETS

8. Apskaičiuok: 1 taškas

60 – 45 : 5 =

9. Autobusu važiavo 40 antrokų ir trečiokų. $\frac{1}{4}$ iš jų buvo antrokai. Kiek antrokų važiavo autobusu? 1 taškas

Atsakymas: _____

10. Kuri žiedų dalis nuspalvinta pilkai? 1 taškas



Atsakymas: $\frac{\square}{\square}$

11. Kokį skaičių reikia atimti iš 80, kad gautume 30 ir 20 skirtumą? 1 taškas

Atsakymas: _____

12. Nubrėžk 5 cm atkarpą. 1 taškas

13. Stačiakampio ilgis – 15 cm, o plotis – 10 cm. Koks stačiakampio perimetras? 1 taškas

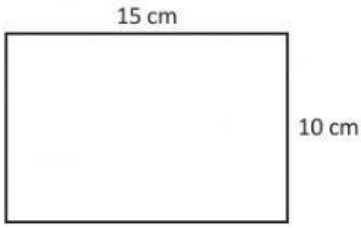

Atsakymas: _____

LIVEWORKSHEETS

14. Domantas žymėjo vienos savaitės orų duomenis. Juos pavaizdavo grafike.

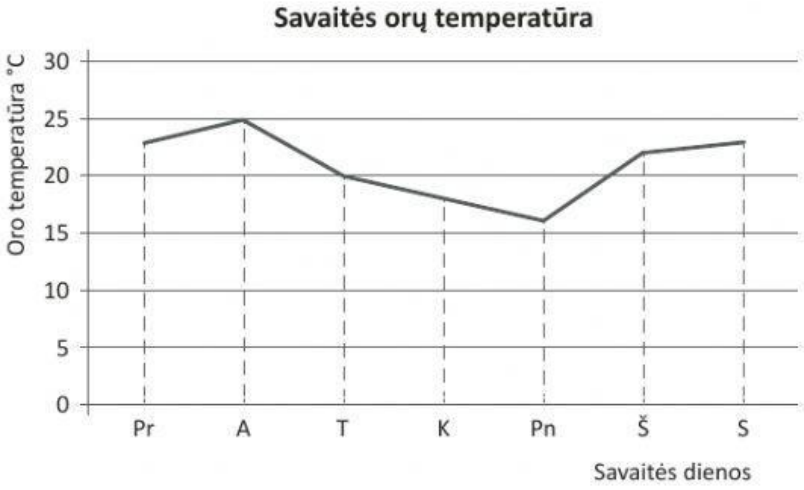

a) Kurią savaitės dieną oro temperatūra buvo aukščiausia? 1 taškas

Atsakymas: _____

b) Kiek dienų oro temperatūra buvo žemesnė nei 20 °C? 1 taškas

Atsakymas: _____

15. Pintinėje buvo 24 obuoliai. Pusę obuolių suvalgė, iš trečdalio likusių obuolių išvirė kompoto. Kiek obuolių liko pintinėje? *Parašyk sprendimą*. 2 taškai

Atsakymas: _____

16. Baik piešti simetrišką piešinį. 1 taškas

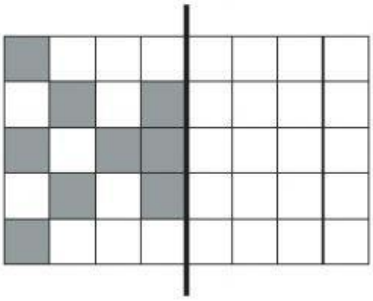

LIVEWORKSHEETS

17. Apskaičiuok reiškinio 8 – a reikšmę, kai a = 3. 1 taškas

Atsakymas: _____

18. Kurį skaičių galima įrašyti į tuščią langelį, kad nelygybė būtų teisinga? 1 taškas

$25 + \square > 50$

A) 15 B) 20 C) 25 D) 30

19. Nupiešk rodykles taip, kad laikrodis rodytų 19 val. 10 minučių. 1 taškas

20. Raminta turi 32 centus. Kurias 3 monetas turi Raminta? 1 taškas

Atsakymas: _____ ct, _____ ct, _____ ct.

21. Parašyk vieną bendrą visoms figūroms požymį. 1 taškas

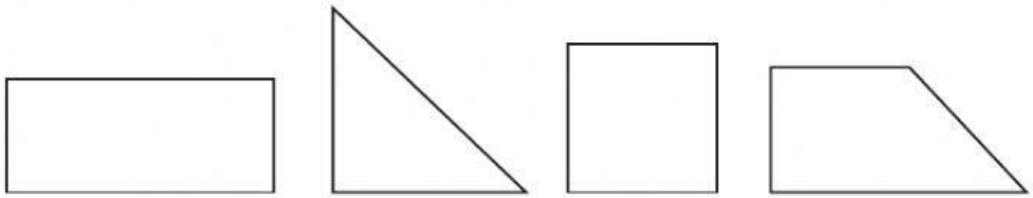

Atsakymas: _____

22. Paulius į muzikos mokyklą išėjo 12:15. Mokykloje buvo 12:35. Kiek laiko Paulius užtruko eidamas? 1 taškas

Atsakymas: _____

LIVEWORKSHEETS

23. Į parduotuvę atvežė 500 kg vaisių: 150 kg obuolių, apelsinų – 3 kartus mažiau negu obuolių, visi kiti vaisiai – bananai. Kiek kilogramų bananų atvežė į parduotuvę? *Užrašyk sprendimą.* 2 taškai

Atsakymas: _____

24. Į kurią geometrinę figūrą panašus eismo ženklas? 1 taškas

Atsakymas: _____

25. Kuri figūra yra ritinys? 1 taškas

A)

B)

C)

D)

26. Kokiu kampu gruodžio mėnesį krinta saulės spinduliai? 1 taškas

Atsakymas: _____

27. Mama parduotuvėje išleido 18 eurų, o tėtis – 6 eurus. Kiek kartų mažiau išleido tėtis? 1 taškas

Atsakymas: _____

28. Koks skaičius slepiasi po žvaigždute? 1 taškas

☆ + 43 = 75

Atsakymas: _____

LIVEWORKSHEETS

29. Susmulkink. 1 taškas

2 h 15 min = _____ min

30. Apskaičiuok. 1 taškas

$$\begin{array}{r} 115\text{ m }35\text{ cm} \\ +\ 75\text{ m }40\text{ cm} \\ \hline \end{array}$$

31. Užbaik skaičių seką. 1 taškas

2, 6, 10, 14, [ ] .

32. Kiek kubelių sudaro statinį? 1 taškas



Atsakymas: _____

33. Trys vienodi pyragaičiai kainuoja 6 eurus. Gimtadieniui besirengiančiai Miglei reikia 7 pyragaičių. Ar jai užteks 15 eurų? 1 taškas

Užteks, nes _____

Neužteks, nes _____

34. Sugalvojau skaičių, jį padauginau iš 3 ir gavau 12. Kokį skaičių aš sugalvojau? 1 taškas

Atsakymas: _____

ĮVERTINIMAS

1. Surinkta [ ] iš 40 taškų.
2. Pasiekimų lygis (teisingą pabraukti):
   nepatenkinamas / patenkinamas / pagrindinis / aukštesnysis

Pastabos: _____

LIVEWORKSHEETS