امسح الرمز لتحصل على شرح الدرس

KINGDOM OF BAHRAIN
Ministry of Education
Sanad Primary Boys' School

مملكة البحرين
وزارة التربية والتعليم
مدرسة سند الابتدائية للبنين

نشاط علاجي-إثرائي في محيط المضلع التاريخ: / /

ما هو المحيط؟

محيط الشكل هو مجموع أطوال أضلاعه الخارجية

محيط المستطيل
= ضعف الطول (ط) + ضعف العرض (ع)

ط
ع

محيط المربع
= ٤ × طول الضلع

السؤال الأول:

مثابر

أ) **لون المضلعات فقط** باللون الذي تفضله واترك غير المضلعات بدون تلوين

ب) أوجد **محيط** المضلعات الآتية

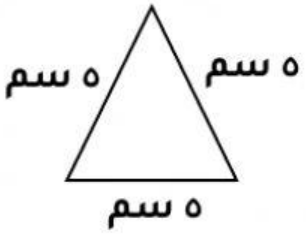

المحيط= .....



المحيط= .....

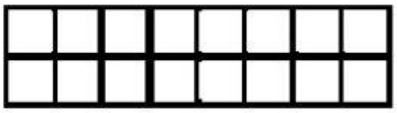

المحيط= .....

السؤال الثاني: أوجد **محيط** كل شكل مما يأتي

مجتهد

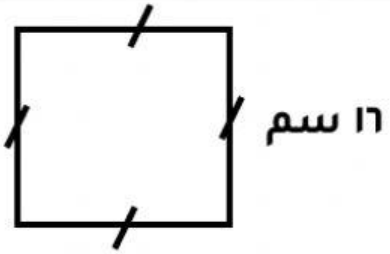

المحيط=

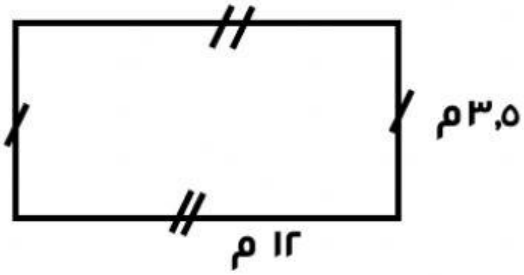

المحيط=

السؤال الثالث:

عبقري

في بيت ميمون حديقة مربعة **محيطها ١٦٠ مترًا**، فما طول ضلعها ؟

الربط بالمواطنة المحلية والعلوم : أقترح على ميمون بعضًا من أصناف الخضروات والفواكه التي يمكن زرعها في مملكة البحرين ليزين بها حديقته.

تقييم المعلمة لأداء الطالب بالدرس:

الوصف	التعزيز	التغذية الراجعة
❑ عملك متقن حققت المطلوب منك بجدارة ❑ حققت المطلوب منك ❑ تحتاج إلى اكمال: الحل-التاريخ- التصحيح الذاتي- تصويب الأخطاء السابقة	❑ شكرا لجهودك المميزة ❑ أقدر جهودك ❑ سعدت بمحاولاتك	❑ تدرب أكثر مستعينا بالأمثلة في الـQR code ومسائل الكراسة ❑ ارجع لنماذج الإجابة ببرنامج كلاس دوجو والبوابة التعليمية ❑ أعد حل المسائل غير الصحيحة

تقدير أداؤك للدرس: مثابر مجتهد عبقري

يعتمد مديرة المدرسة: أ. جيهان الدوسري

LIVEWORKSHEETS