ESCUELA DE EDUCACION BASICA LEMCIS PLUS

Ambato –Ecuador
Año lectivo
2021-2022

Evaluación 1er Parcial 2do Quimestre

Matemáticas

Nombre: .....

Fecha: .....

Profesora:.....

1.- Un trapezoide tiene como características principales.

2.- Realizar las siguientes divisiones.

7884 | 82 5009 | 38

LIVEWORKSHEETS

ESCUELA DE EDUCACION BASICA
LEMCIS PLUS

Ambato –Ecuador
Año lectivo
2021-2022

3. Complete:

El cuadrilátero que tiene dos lados paralelos, otros dos no paralelos y congruentes es:…….

4.- Sacar el perímetro de la siguiente figura.

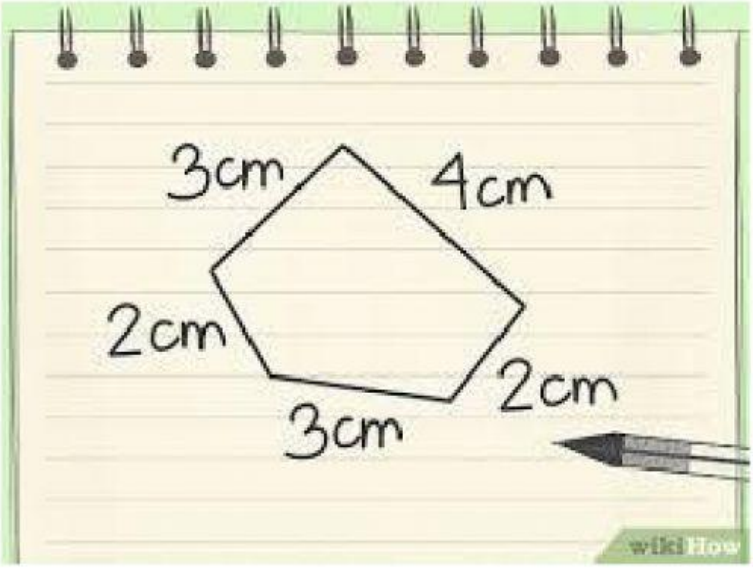

5.-. Coloque las partes de una circunferencia.

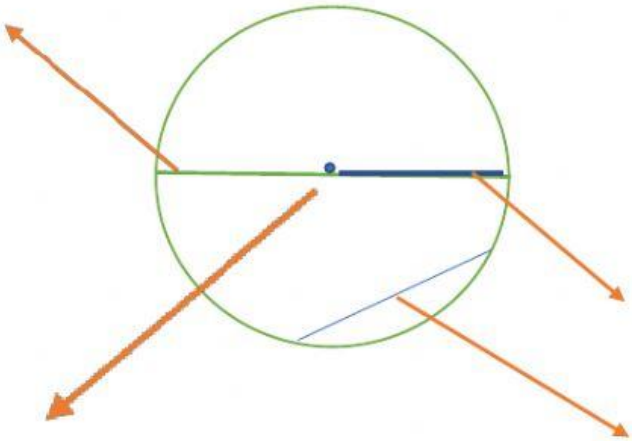

LIVEWORKSHEETS

ESCUELA DE EDUCACION BASICA
LEMCIS PLUS

Ambato –Ecuador
Año lectivo
2021-2022

6.- Resuelva el siguiente problema.

Un empleado de una bodega debe empacar 12.582 pares zapatos en cajas, en cada caja debe ir exactamente 84 pares.

¿cuántos cajas debe utilizar?

R: ……

7.- Realizar las siguientes multiplicaciones.

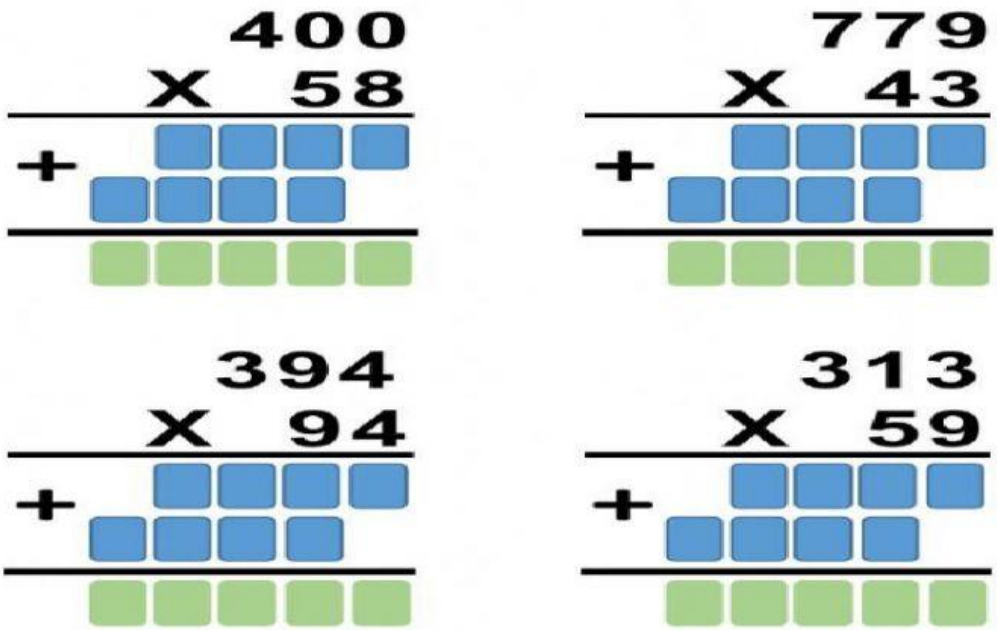

LIVEWORKSHEETS

ESCUELA DE EDUCACION BASICA
LEMCIS PLUS

Ambato –Ecuador
Año lectivo
2021-2022

8.-. José tiene 789.456 dólares y quiere comprarse una casa, la casa vale 572.341 dólares.

¿Cuánto dinero le quedara?

LIVEWORKSHEETS