LEMBAR KERJA
DEMONSTRASI KONTEKSTUAL

NAMA

KELAS

Setelah mempelajari materi dan berdiskusi dengan kelompokmu, kerjakan soal-soal berikut!

1. Menurut Dalton, atom merupakan …
   A. Kumpulan pertikel sejenis
   B. Bagian terkecil dari suatu materi
   C. Materi yang terdiri dari sejenis unsur
   D. Partikel yang terdiri dari proton dan elektron
   E. Pertikel bermuatan yang tidak bisa dibagi lagi
2. Model atom yang seperti roti kismis adalah model atom
3. Klik atau sentuh nama model atom, kemudian geser dan lepas di atas kotak yang tersedia agar menjadi pasangan yang benar!

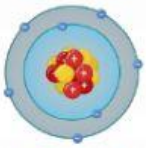



Model atom Dalton

Model atom Thomson

Model atom Rutherford

Model atom Bohr

Model atom Mekanika kuantum

LIVEWORKSHEETS

4. Pasangkanlah gambar dasar percobaan dengan model atomnya dengan cara menarik garis agar menjadi pasangan yang benar!

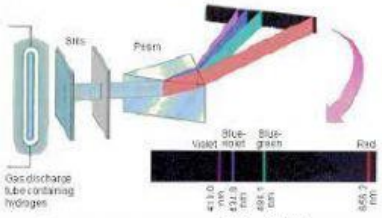

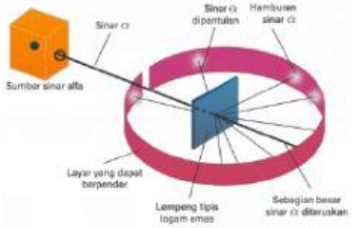

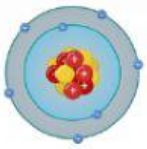

5. Isilah kotak yang disediakan pada gambar model atom Bohr berikut dengan jawaban yang benar!

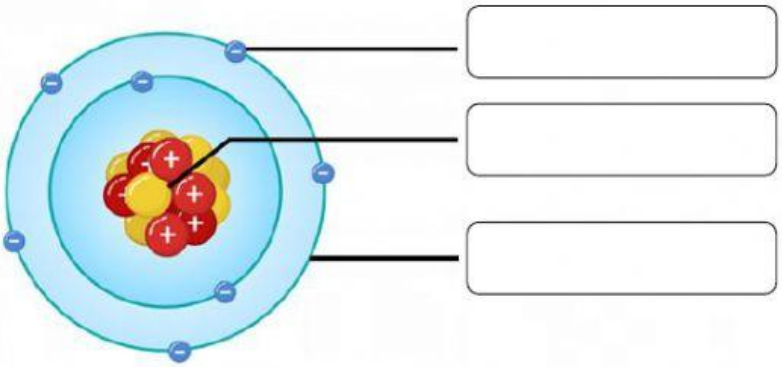

LIVEWORKSHEETS