INSTITUCIÓN EDUCATIVA 3721

"SANTA ROSA"

Apellidos y nombres _____

Año/sección _____

Después de ver el video enumera la respuesta correcta

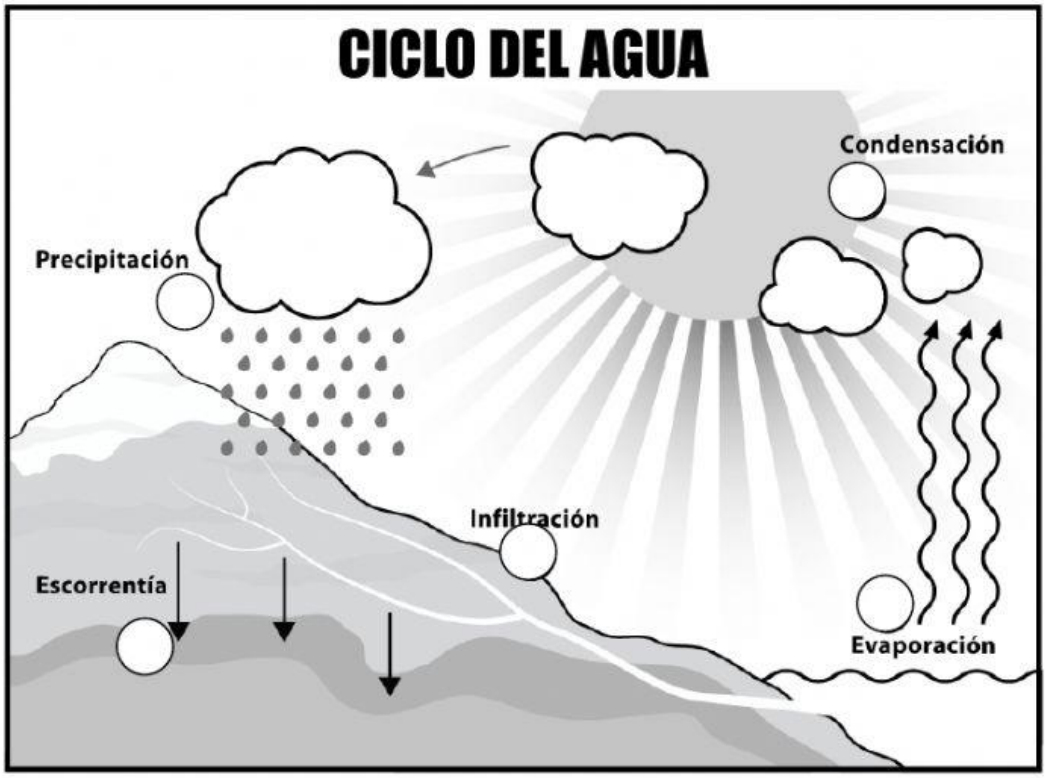

1 2 3 4 5

LIVEWORKSHEETS

OBSERVA Y COLOCA UNA X SI CONSIDERAS QUE SE ENCUENTAN REPRESENTANDO EN LA IMAGEN:

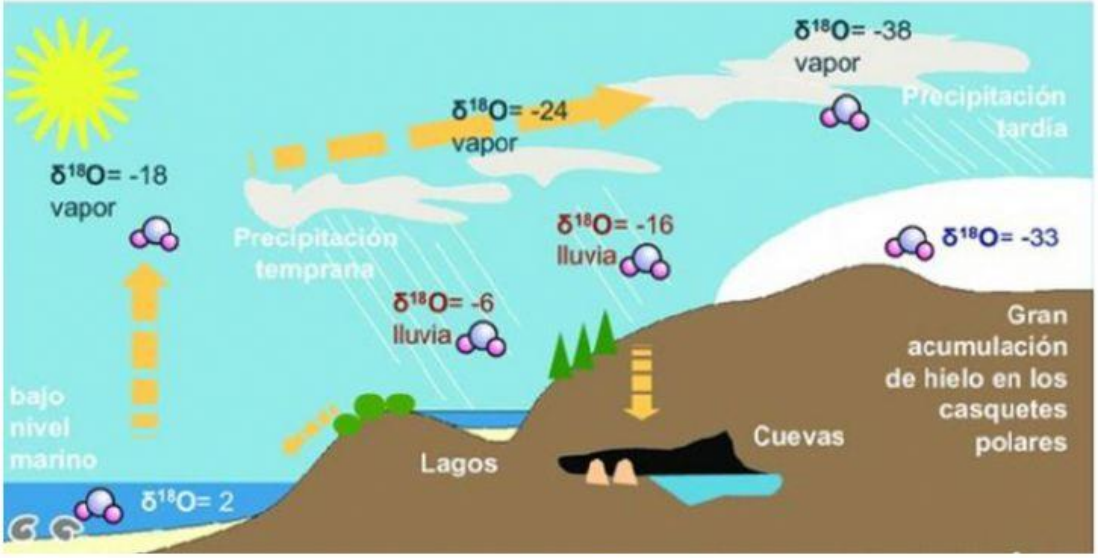

	ISOPOTOS ESTABLES
	ELENTRON
	PROTON
	NEUTRON

MARCA LAS CARACTERÍSTICAS QUE TIENE EL AGUA

	NO TIENE OLOR
	ES DE COLOR AZUL
	NO TIENE SABOR
	SU SABOR ES DULCE
	TIENE UN OLOR DESAGRADABLE

LIVEWORKSHEETS

ARRASTRA LAS FOTOGRAFIAS SEGÚN EL ESTADO DEL AGUA

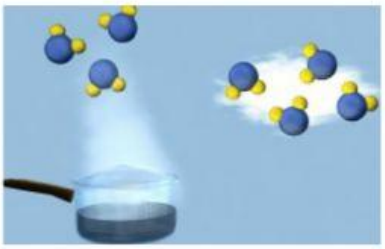

SOLIDO	GASEOSO	LIQUIDO

LIVEWORKSHEETS