10. Calcula el módulo de la resultante:

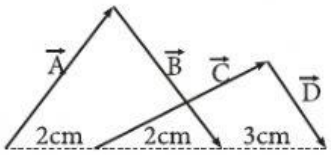

a) 7 cm
b) 9 cm
c) 4 cm
d) 10 cm
e) 2 cm

Tarea para la Casa

1. Calcula el módulo del vector resultante.

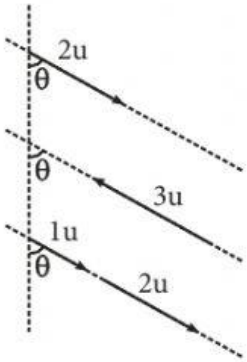

a) 2 u
b) 3 u
c) 4 u
d) 5 u
e) 6 u

2. Calcula el vector resultante.

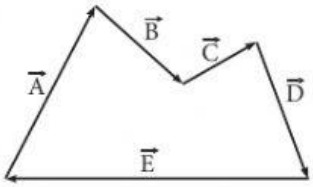

a) 0
b) $\vec{E}$
c) $2\vec{E}$
d) $2\vec{C}$
e) $2\vec{D}$

3. Calcula el vector resultante.

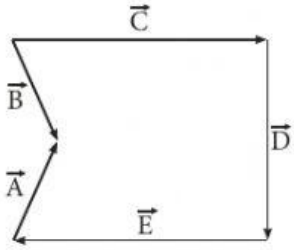

a) $2\vec{A}$
b) $2\vec{B}$
c) $2\vec{C}$
d) $2\vec{D}$
e) Cero

4. En la figura se muestra un triángulo equilátero MNP. Si la longitud de uno de sus lados es 2 cm, calcula el módulo del vector resultante.

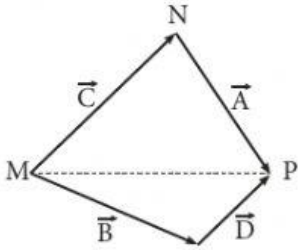

a) 2 cm
b) 4 cm
c) 6 cm
d) 8 cm
e) cero

5. Si la siguiente figura muestra un cuadrado de 3 cm de lado, calcula el módulo del vector resultante.

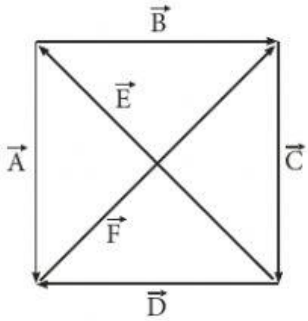

a) 0
b) $2\vec{A}$
c) $3\vec{A}$
d) $2\vec{C}$
e) $3\vec{C}$

Prof. Rosa Nelly Ayaucán García

LIVEWORKSHEETS