1. ¿Cuántos botones hay en cada caso? Cuenta y completa

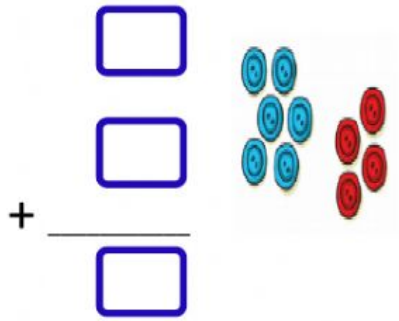

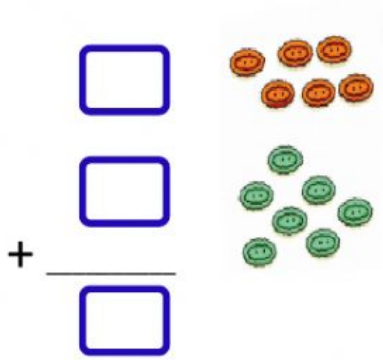

2. Suma

3	2	4	5	6
+6	+5	+7	+3	+2
☐	☐	☐	☐	☐

3. Resuelve

Juan Miguel tiene 3 caramelos de naranja y 5 de limón. ¿Cuántos caramelos tiene en total?

☐
+ ☐
☐

Tiene ☐ caramelos.

5. continua la serie.

6. Continua la serie.

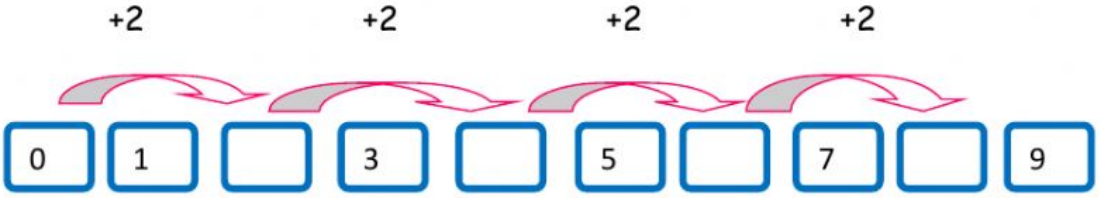

7. Escribe el anterior y el posterior.

	4	
	10	
	2	

	5	
	8	
	6	

8. Continua la serie.

-1 -1 -1 -1 -1 -1 -1 -1 -1

9	8							1	0