Họ và tên: ..... Lớp:.....

PHIẾU ÔN TẬP TOÁN – TUẦN 25

Các số đến 100

Khoanh vào chữ cái trước ý trả lời đúng (câu 1, 2, 3).

1. Chọn sơ đồ đúng.

A. 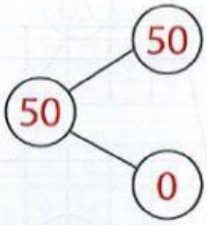

B. 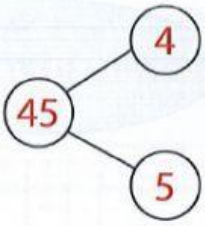

C. 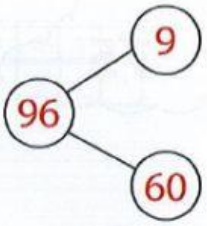

2. **93** gồm:

A. 2 chục và 7 đơn vị

B. 9 chục và 3 đơn vị

C. 3 chục và 9 đơn vị

3. Chọn số đúng.



A. 35 B. 43 C. 53

4. Tô màu lá cờ có kết quả 69.

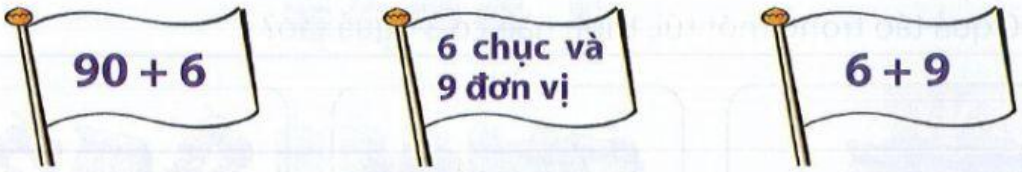

5. Đúng ghi đ; sai ghi s vào ô vuông.

a) 64 = 4 + 60 ☐ b) 60 + 4 = 604 ☐ c) 6 + 4 = 64 ☐

LIVEWORKSHEETS

6. Nối theo mẫu.

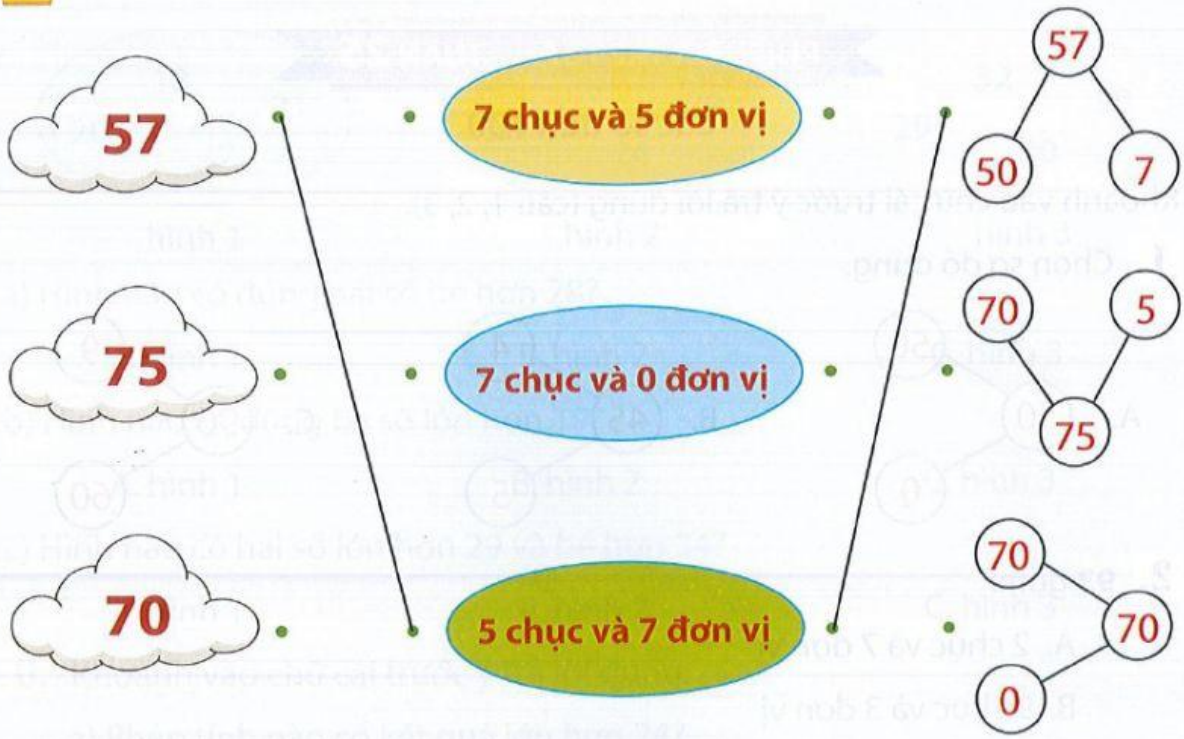

7. Khoanh vào chữ cái trước ý trả lời đúng.

Số 68 ở trong hình nào?

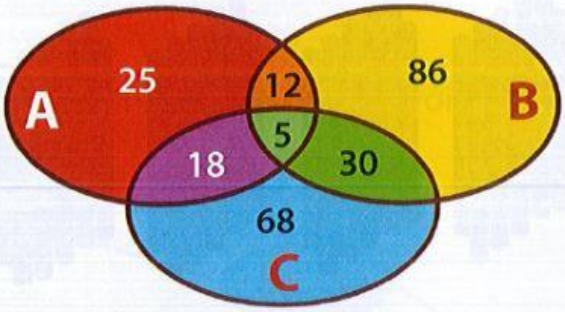

A. Hình A B. Hình B C. Hình C

8. Khoanh vào chữ cái trước ý trả lời đúng.

Có 10 quả táo trong một túi. Hình nào có 31 quả táo?



A.



B.

C.

LIVEWORKSHEETS