LONGITUD DE LA CIRCUNFERENCIA

(*PERÍMETRO DEL CÍRCULO*)

ejemplo Calcula la longitud de una circunferencia de 5 m de diámetro.

La longitud, al ser distancia, se mide en la unidad indicada pero NO al cuadrado

Como el radio es la mitad del diámetro,, debo dividir el diámetro(5) entre 2 y me da = 2´5m

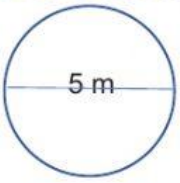

L= 2 x π x r = 2 x 3,14 x 2,5 = 15,7 m

Calcula la longitud de las siguientes circunferencias:

Para poner decimales hazlo con una coma

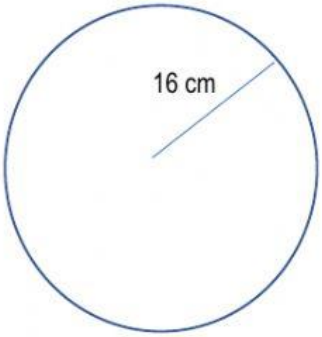

L= _____ cm

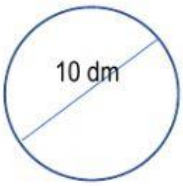

L= _____ dm

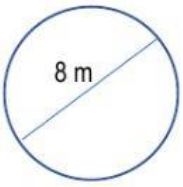

L= _____ m

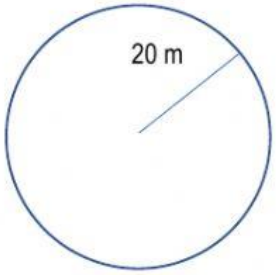

L= _____ m

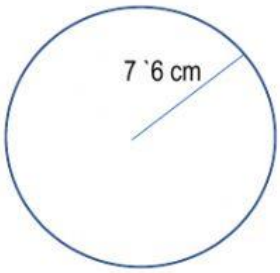

L= _____ cm

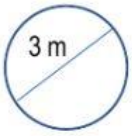

L= _____ m