تدريبات الوحدة 11 للصف الثامن
متوازي الأضلاع والمستطيل والمعين

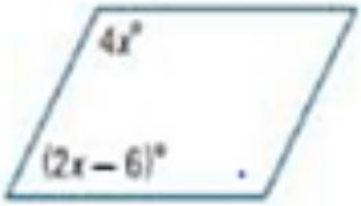

1/ قيمة X في متوازي الأضلاع المقابل هي

a) 3 b) 29 c) 31 d) 124

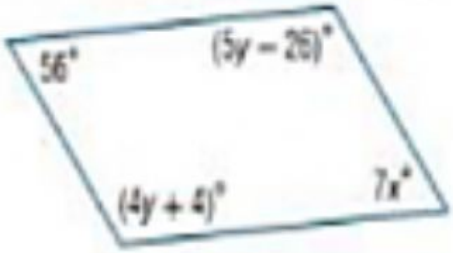

2/ قيمة X وY بحيث يكون الشكل المقابل متوازي أضلاع :

a) X = 8 , Y = 22 b) X = 8 , Y = 30 c) X = 49 , Y = 22 d) X = 63 , Y = 15

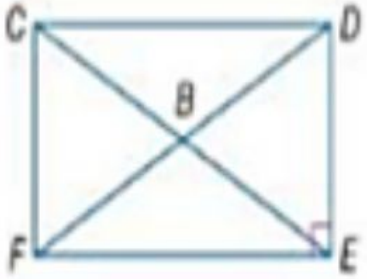

3/ في المستطيل المقابل BD = 3 cm فإن طول $\overline{CE}$ يساوي

a) 3 cm b) 6 cm c) 9 cm d) 12 cm

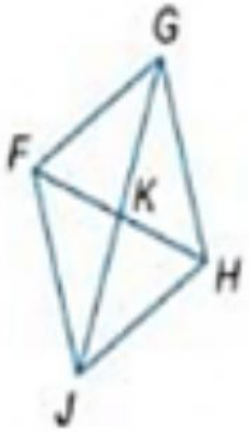

4/ تتقاطع أقطار المعين FGHJ عند النقطة K

إذا كان FK = 5 cm , FG = 13 cm فإن طول $\overline{KJ}$ يساوي

a) 3 cm b) 6 cm c) 9 cm d) 12 cm