PHIẾU HỌC TẬP
Mã 32802
Ngày tháng năm

Họ và tên: ..... Lớp .....

1 **a) Sắp xếp các số sau theo thứ tự từ bé đến lớn**

b) Sắp xếp các số sau theo thứ tự từ lớn đến bé

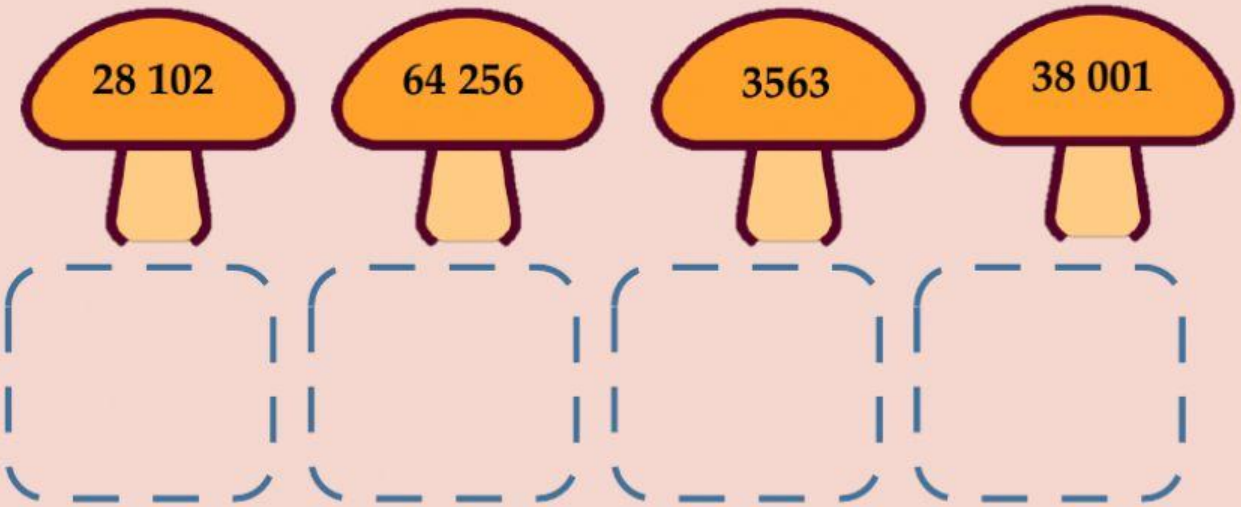

LIVEWORKSHEETS

2 Tích vào các số để được phép so sánh đúng

49 218 < 49 21 ?

7 8 9

60 ? 25 > 60 799

7 8 9

76 543 < 76 54 ? < 76 547

4 5 6

3 Cho các hình sau

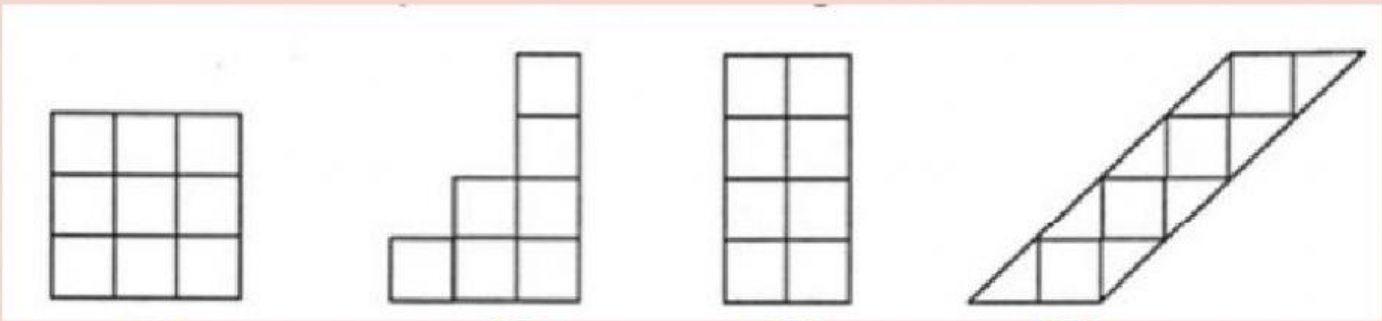

A B C D

Biết ☐ là hình vuông có cạnh bằng 1cm.

Diện tích ☐ là: cm^2

Diện tích hình A là : cm^2 Diện tích hình B là : cm^2

Diện tích hình C là : cm^2 Diện tích hình D là : cm^2

LIVEWORKSHEETS

4 **Chọn hình bằng tổng diện tích hai hình dưới đây**





A **B** **C**

5 **Một mảnh giấy thủ công có diện tích 300cm^2, người ta cắt đi $\frac{1}{3}$ mảnh giấy đó còn lại để gấp thuyền. Hỏi mảnh giấy còn lại để gấp thuyền có diện tích bao nhiêu xăng – ti – mét vuông?**

Bài giải

.....

□ ○ □ = □ (cm^2)

.....

□ ○ □ = □ (cm^2)

Đáp số: ……cm^2

LIVEWORKSHEETS