1 ¿Qué lugar ocupa cada figura en la fila? Escríbelo, recuerda que el simbolo º se escribe con la tecla que hay a la izquierda del 1 en el teclado.

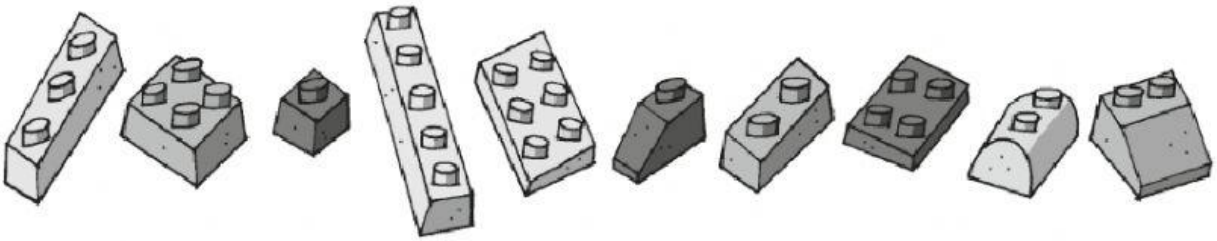

1º	2º								

quinto

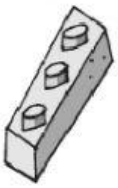

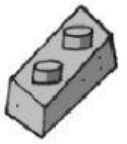

2 Coloca y resuelve.

10 + 10= 30 + 10= 10+10+5= 40+10+2=

3 Resuelve estas sumas.

3 5	6	5 2	1 7
3 5	5 5	1 6	2 2
+ 2 2	+ 3 0	+ 1 6	+ 2 5
☐	☐	☐	☐

4 ¿Cuánto dinero hay en cada caso? Recuerda, se suman por un lado los euros y por otros los céntimos



☐ euros y ☐ céntimos



☐ euros y ☐ céntimos

5 En la tienda de deportes han cambiado los precios. Calcula los nuevos precios.

- Si una raqueta cuesta 12 euros más, ¿cuál es su precio ahora?

☐ + ☐ = ☐

▶ Su precio es ☐ euros.

- Si las zapatillas cuestan 7 euros menos, ¿cuál es su precio ahora?

☐ − ☐ = ☐

▶ Su precio es ☐ euros.