PHIẾU BÀI TẬP ÔN TẬP CỘNG TRONG TIM

Bài 1: Điền số còn thiếu vào ô trống:

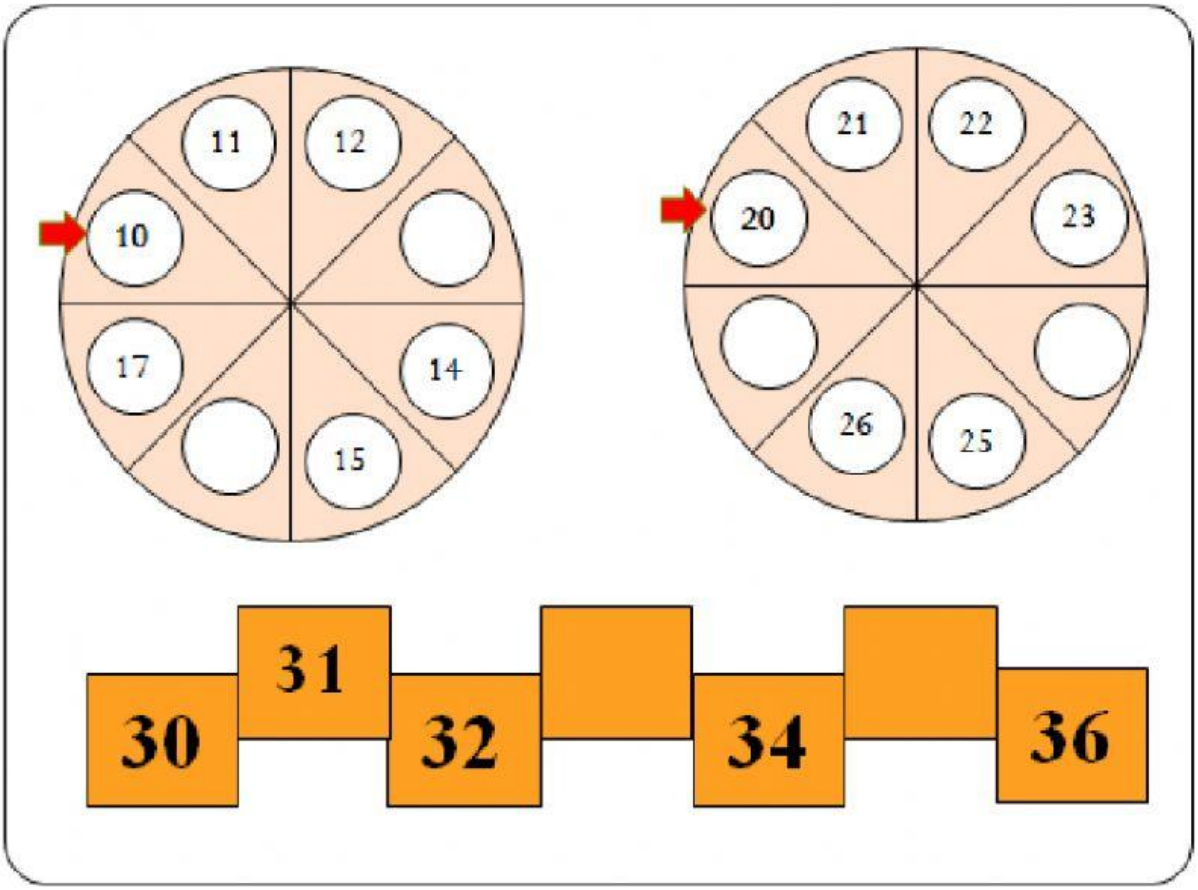

Bài 2: Nối thẻ số với số tương ứng

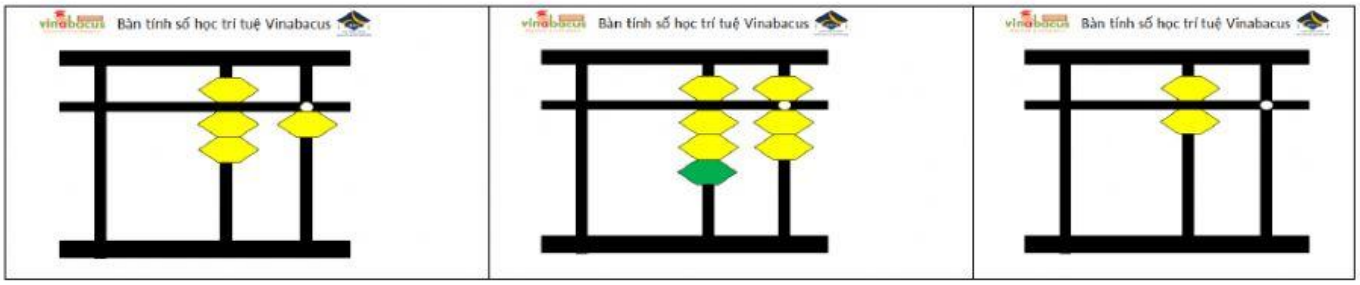

87 71 60

LIVEWORKSHEETS

Bài 3: Tìm người bạn nhỏ còn thiếu điền vào (….)

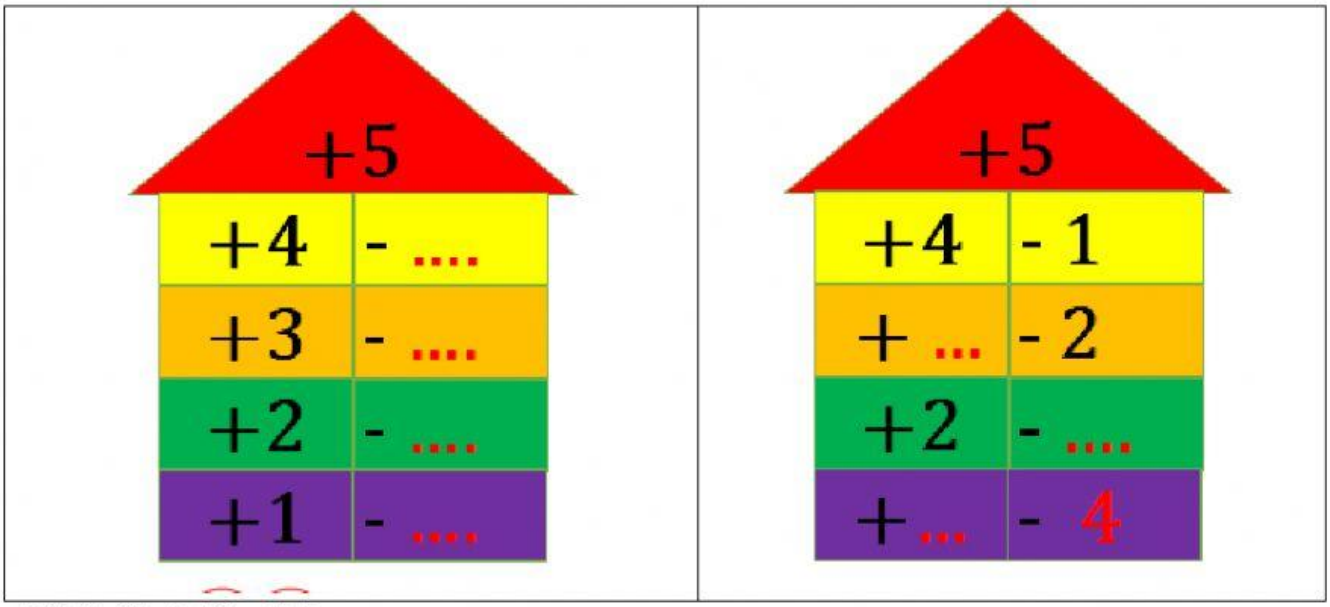

Bài 4: Tính bàn tính.

1	2	3	4	5	6	7	8	9	10
3	9	11	33	84	67	34	23	94	53
4	-7	4	3	2	-6	3	2	4	3
-6	4	4	-1	-6	4	-6	-5	-6	-1

Bài 5: Tính tư duy:

1	2	3	4	5	6	7	8	9	10
1	2	8	9	14	19	22	7	3	4
4	4	-5	-5	1	-5	3	-5	3	2
-5	-1	3	2	2	4	3	4	-1	3

LIVEWORKSHEETS