Tên con là .....

TOÁN
Ôn tập tuần 28
CUỘC ĐUA KÌ THÚ

Vòng đua 1: Thử tài ghi nhớ

Chọn đáp án đúng

Số gồm 6 chục và 3 đơn vị là:

36 | 63 | 60

Số 42 gồm 4 chục và 0 đơn vị.

Đúng | Sai

Sơ đồ tách – gộp nào đúng?

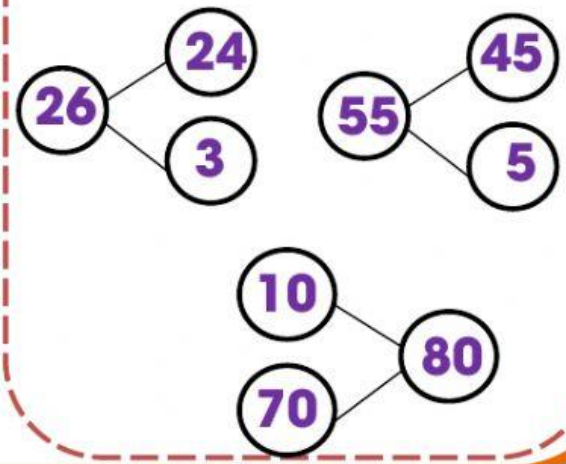

Vòng đua 2: Thử tài đặt tính

Đặt tính rồi tính

12 + 45

.....

.....

.....

8 + 51

.....

.....

.....

63 - 13

.....

.....

.....

LIVEWORKSHEETS

Vòng đua 3:
Thử tài phép tính

Viết phép tính thích hợp theo tranh



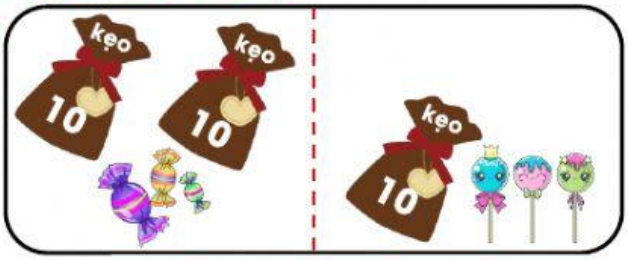



Vòng đua 4:
Thử tài xem giờ

Nối đồng hồ thích hợp với các hoạt động

Nam đi ăn lúc 11 giờ trưa.

Nam ra về lúc 4 giờ chiều.

Nam học Tiếng Anh lúc 9 giờ sáng.

Nam đến thư viện để đọc sách lúc 2 giờ chiều.

Chúc mừng các vận động viên đã chiến thắng cuộc đua.

LIVEWORKSHEETS