1. Observa el gráfico y contesta.

Joaquín ha representado en el gráfico el número de zumos de naranja y de limón que sirvió en tres mesas.

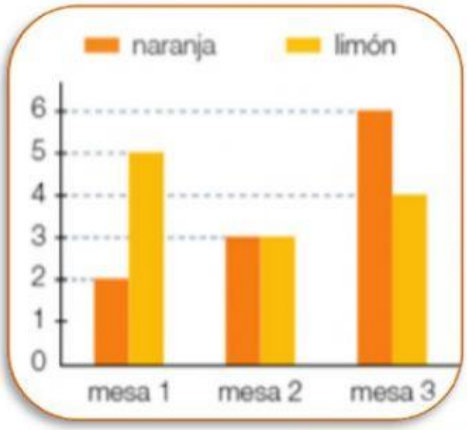

♠ ¿Cuántos zumos de naranja sirvió en la mesa 1?

♠ ¿Cuántos zumos de limón se sirvió en la mesa 3?

♠ ¿En qué mesa sirvió menos zumos de limón?

♠ ¿En qué mesa sirvió más zumos de naranja que de limón?

♠ ¿En qué mesa sirvió el mismo número de zumos de naranja que de limón?

☺ Señala los zumos que sirvió Joaquín y elige.




- ¿En qué mesa sirvió más zumos en total?

2. ¿Cuántos caramelos tienen?

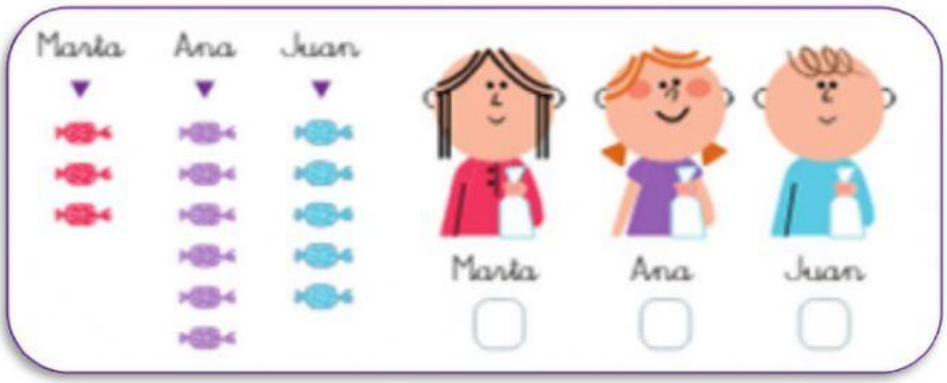


☺ Colorea una casilla por cada caramelo.

| | | | | | | |
|---|---|---|---|---|---|---|
| Marta | ☐ | ☐ | ☐ | ☐ | ☐ | ☐ |
| Ana | ☐ | ☐ | ☐ | ☐ | ☐ | ☐ |
| Juan | ☐ | ☐ | ☐ | ☐ | ☐ | ☐ |
| | 1 | 2 | 3 | 4 | 5 | 6 |

☺ Observa las barras y escribe **V** (verdadero) o **F** (falso)

☐ Marta tiene más caramelos que Ana.

☐ Ana tiene más caramelos que Juan.

☐ Marta tiene menos caramelos que Juan.