Colegio Cristiano
MONTECARLO

EVALUACIÓN MENSUAL DE ARITMÉTICA

Nombres y apellidos:.....

Grado 2º Grado Prof.: Johanna Uypan

1.- Escribe en forma literal:

95 = _____

48 = _____

2.- Escribe la notación desarrollada de:

213 = _____

102 = _____

3.- Realiza la descomposición según el tablero de valor posicional:

194 = _____

230 = _____

4.- Representa en tu cuaderno mediante el diagrama de Venn el siguiente conjunto:

A= {m, u, r, c, i, e, l, a, g, o}

Representa en tu cuaderno mediante el diagrama de llaves el siguiente conjunto:

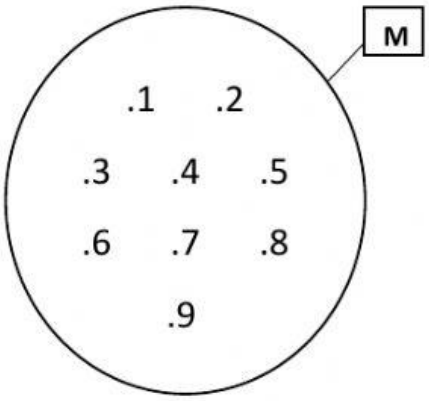

LIVEWORKSHEETS

5.- **Coloca el símbolo de Pertenencia (∈) o no pertenencia (∉) en los siguientes ejercicios:**

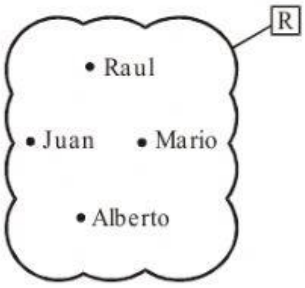

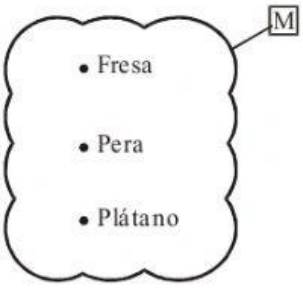



a) Carlos _____ R

b) Juan _____ R

c) Raúl _____ R

d) Ronald _____ R

a) Naranja _____ M

b) Pera _____ M

c) Mango _____ M

d) Plátano _____ M

LIVEWORKSHEETS